PRUEBA DE ACCESO A LA UNIVERSIDAD Y PRUEBA DE ADMISIÓN

GEOGRAFÍA

ANDALUCÍA, CEUTA, MELILLA y CENTROS en MARRUECOS

CURSO 2024-2025

Instrucciones:

a) Duración: 1 hora y 30 minutos.

b) El examen consta de tres bloques (A, B y C). En dos de los tres bloques se plantean varias preguntas, de las que debe responder al número que se indica en cada uno de ellos. En el caso de responder a más preguntas, serán tenidas en cuenta las respondidas en primer lugar.

c) Todas las cuestiones deben responderse en el papel entregado para la realización del examen y nunca en los folios que contienen los enunciados.

d) La valoración de cada respuesta se indica en el bloque correspondiente.

BLOQUE A (Glosario)

Puntuación máxima: 2 puntos.

En este bloque se plantean 8 expresiones para relacionarlas con determinados conceptos geográficos.
Cada respuesta tendrá un valor máximo de 0,25 puntos.

a) Relación existente entre la representación reducida de una distancia sobre un mapa y su tamaño real sobre el terreno.

b) Embolsamiento de aire frío rodeado por aire más cálido debido a una profunda ondulación de la corriente en chorro polar, que acaba desprendiéndose y avanzando hacia latitudes más cálidas. Genera gran inestabilidad, con chubascos intensos y fuertes tormentas, especialmente si el aire en superficie es muy cálido y húmedo. En España esta situación es característica del otoño e incide especialmente sobre las costas mediterráneas, las costas cantábricas y el suroeste o sur peninsular.

c) Tipo de bosque en el que las plantas o formaciones vegetales que lo componen mantienen la hoja todo el año. En España son características del clima y región biogeográfica mediterránea. Especies representativas serían la encina, el alcornoque o el pino.

d) Parte de una explotación agrícola cultivada con técnicas de rotación, que queda temporalmente sin cultivar, con el objetivo de que se regenere el suelo de forma natural durante ese tiempo.

e) Cría y cultivo de especies animales y vegetales acuáticas, fundamentalmente con fines comerciales. Alguna de las instalaciones propias para la producción son los viveros y las piscifactorías.

f) Tipo de pesca realizada con barcos de medio y gran tamaño equipados técnicamente y que suelen salir en pequeñas flotillas a lugares alejados del litoral. Permanecen fuera de puerto por un periodo de varias semanas, por lo que deben iniciar el proceso de conservación del pescado mediante instalaciones frigoríficas a bordo.

g) Proceso que consiste en el traslado de todos los centros de trabajo específicos de una empresa o de parte de ellos a determinadas áreas o países que presentan menores costes de producción con el objetivo de que la empresa obtenga mayores beneficios.

h) Compañías mayoristas que integran todas las fases del negocio turístico. Estas agencias especializadas organizan el turismo, sobre todo el internacional. Manejan paquetes turísticos que incluyen estancias, visitas y el viaje.

PRUEBA DE ACCESO A LA UNIVERSIDAD Y PRUEBA DE ADMISIÓN

ANDALUCÍA, CEUTA, MELILLA y CENTROS en MARRUECOS

CURSO 2024-2025

GEOGRAFÍA

BLOQUE B (ejercicios de desarrollo práctico y teórico)

Puntuación máxima: 4 puntos.

En este bloque se plantean 2 ejercicios de análisis y comentario a partir de mapas, gráficos, imágenes, cuadros estadísticos o textos, de los que debe responder, a su elección, SOLAMENTE 1.

Cada ejercicio tendrá un valor máximo de 4 puntos.

EJERCICIO 1. El mapa correspondiente a este ejercicio muestra los dominios litológicos de la península Ibérica, Baleares y Canarias. Obsérvelo y responda a las siguientes cuestiones:

1.1) Indique ordenadamente los nombres de las unidades de relieve numeradas y señale el dominio litológico más extendido en ellas (hasta 1 punto).

1.2) Trazando una línea vertical que atraviese la península Ibérica de norte a sur (tal y como se aprecia en el mapa), ¿qué comunidades autónomas situadas total o parcialmente al oeste de esa línea tienen todo o una parte de su territorio asentado sobre el dominio litológico silíceo? (hasta 1 punto).

1.3) Los relieves insulares (hasta 2 puntos).

EJERCICIO 2. Analice el mapa de las demarcaciones hidrográficas y responda a las siguientes cuestiones:

2.1) Indique, de norte a sur, cuatro ríos de la vertiente mediterránea española (hasta 1 punto).

2.2) Explique las causas de la diferente extensión superficial de las cuencas hidrográficas de la vertiente atlántica frente a la vertiente mediterránea (hasta 1 punto).

2.3) Uso y aprovechamiento de las aguas (hasta 2 puntos).

BLOQUE C (ejercicios de desarrollo práctico y teórico)

Puntuación máxima: 4 puntos.

En este bloque se plantean 2 ejercicios de análisis y comentario a partir de mapas, gráficos, imágenes, cuadros estadísticos o textos, de los que debe responder, a su elección, SOLAMENTE 1.

Cada ejercicio tendrá un valor máximo de 4 puntos.

EJERCICIO 1. En el gráfico correspondiente a este ejercicio se representa el modelo de transición demográfica en España. Analícelo y conteste a las siguientes cuestiones:

1.1) Indique con el número o números que aparecen en el gráfico la fase del modelo demográfico antiguo y explique el comportamiento en España de los elementos implicados (hasta 1 punto).

1.2) Indique con el número o números que aparecen en el gráfico la fase del comportamiento demográfico moderno en España y describa sus características (hasta 1 punto).

1.3) Estructura y composición de la población española (hasta 2 puntos).

EJERCICIO 2. En el mapa correspondiente a este ejercicio aparece representado el sistema urbano español. Analícelo y conteste a las siguientes cuestiones:

2.1) Cite las aglomeraciones urbanas que tienen entre 500.000 y 1.500.000 habitantes y sitúelas en los ejes urbanos correspondientes (hasta 1 punto).

2.2) Describa y caracterice tres de los ejes urbanos que aparecen reflejados en el mapa (hasta 1 punto).

2.3) La estructura y el plano de la ciudad (hasta 2 puntos).

PRUEBA DE ACCESO A LA UNIVERSIDAD Y PRUEBA DE ADMISIÓN

ANDALUCÍA, CEUTA, MELILLA y CENTROS en MARRUECOS

CURSO 2024-2025

GEOGRAFÍA

BLOQUE B. EJERCICIO 1. MAPA.

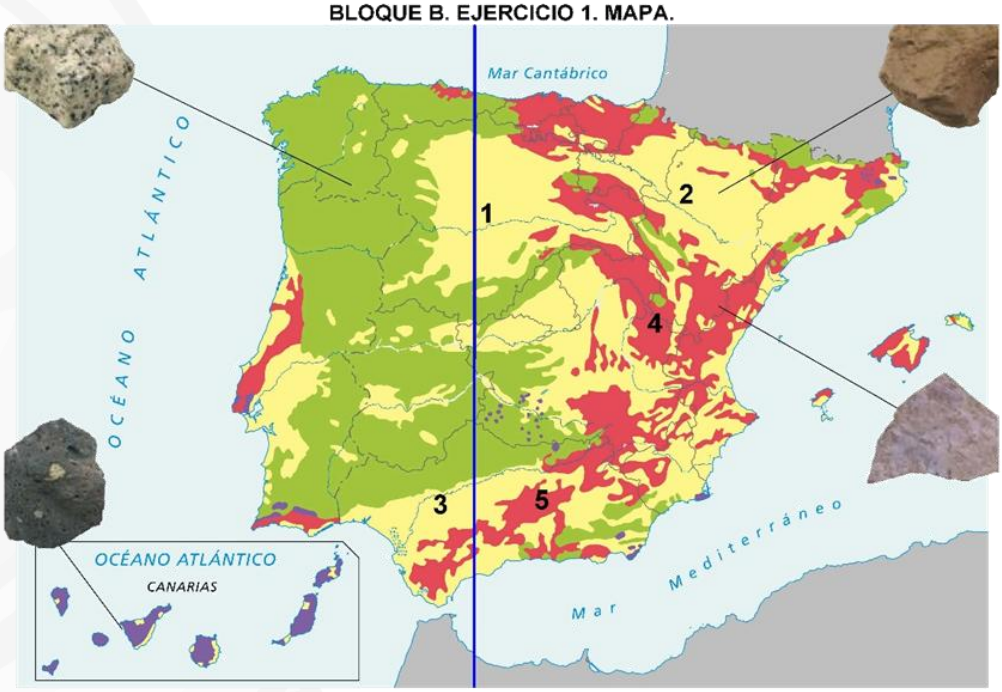

BLOQUE B. EJERCICIO 2. MAPA.



PRUEBA DE ACCESO A LA UNIVERSIDAD Y PRUEBA DE ADMISIÓN

GEOGRAFÍA

ANDALUCÍA, CEUTA, MELILLA y CENTROS en MARRUECOS

CURSO 2024-2025

BLOQUE C. EJERCICIO 1. GRÁFICO.

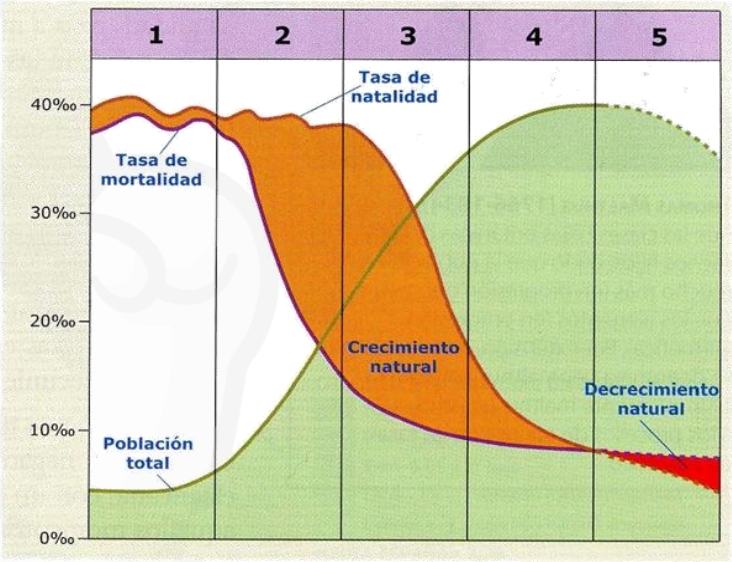

BLOQUE C. EJERCICIO 2. MAPA.

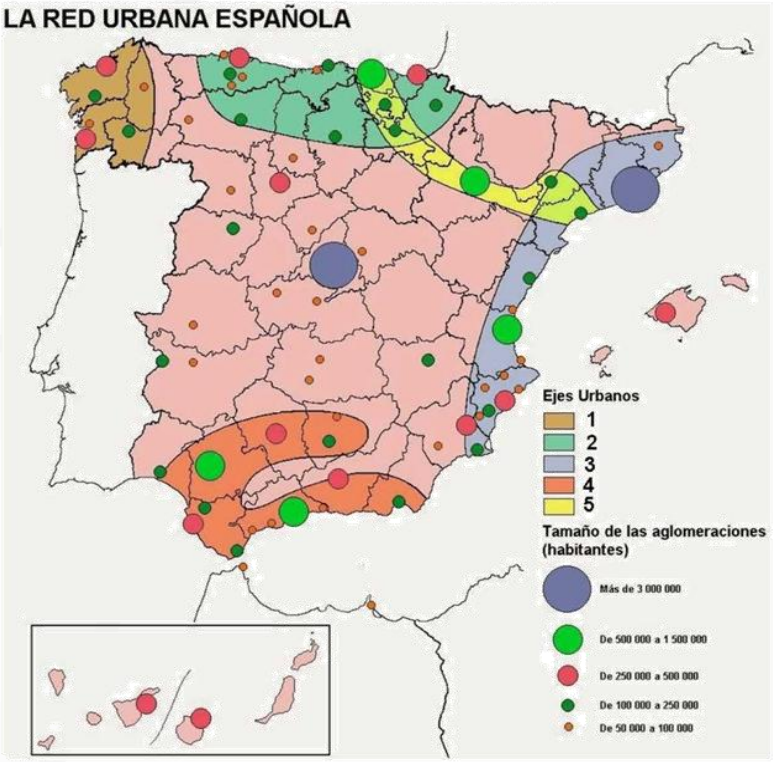

PRUEBA DE ACCESO A LA UNIVERSIDAD Y PRUEBA DE ADMISIÓN

GEOGRAFÍA

ANDALUCÍA, CEUTA, MELILLA y CENTROS en MARRUECOS

CURSO 2024-2025

Instrucciones:

a) Duración: 1 hora y 30 minutos.

b) Todas las cuestiones deben responderse en el papel entregado para la realización del examen y nunca en los folios que contienen los enunciados.

c) El examen consta de tres bloques (A, B y C). En dos de los tres bloques se plantean varias preguntas, de las que debe responder al número que se indica en cada uno de ellos. En el caso de responder a más preguntas, serán tenidas en cuenta las respondidas en primer lugar.

d) La valoración de cada respuesta se indica en el bloque correspondiente.

BLOQUE A (GLOSARIO)

Puntuación máxima: 2 puntos.

En este bloque se plantean 8 expresiones para relacionarlas con determinados conceptos geográficos.
Cada respuesta tendrá un valor máximo de 0,25 puntos.

a) Conjunto de vías de progreso económico, social y político capaces de satisfacer las necesidades actuales sin comprometer los recursos y posibilidades de las futuras generaciones.
b) Zona deprimida formada por el hundimiento de un bloque de un zócalo por presiones orográficas, tras lo cual se va rellenando con sedimentos y formando un relieve relativamente llano.
c) Valle fluvial que, en su desembocadura, es inundado por agua marina debido al hundimiento de la línea de costa, a un aumento del nivel del mar o a ambos fenómenos a la vez.
d) Conjunto de ciudades independientes que crecen espacialmente y se unen formando un continuo urbano mediante la unión física de sus periferias.
e) Expresión que relaciona la población de un territorio y la superficie del mismo y que indica el grado de ocupación media del territorio. Se expresa en habitantes por kilómetro cuadrado (hab/km²).
f) Tipo de pesca realizada durante el mismo día, en las proximidades de la costa (hasta 60 millas) utilizando pequeñas embarcaciones equipadas normalmente con métodos artesanos.
g) Material, fenómeno o recurso a partir del cual podemos obtener energía, bien directamente o mediante transformación física o química. Según la disponibilidad se clasifican en: fósiles, no renovables y agotables; y renovables o alternativas.
h) Conjunto de medios que permite el desplazamiento de personas, mercancías e información entre lugares geográficos. Desempeña un importante papel económico y en la organización espacial.

BLOQUE B (ejercicios de desarrollo práctico y teórico)

Puntuación máxima: 4 puntos.

En este bloque se plantean dos ejercicios de análisis y comentario a partir de mapas, gráficos, imágenes, cuadros estadísticos o textos, de los que debe responder, a su elección, SOLAMENTE 1.
Cada ejercicio tendrá un valor máximo de 4 puntos.

EJERCICIO 1. El mapa correspondiente a este ejercicio presenta la precipitación media anual 1981-2010. A partir del mismo responda a las siguientes cuestiones:

1.1) Indique cinco provincias que incluyan zonas con precipitaciones entre 0 y 400 mm anuales (hasta 1 punto).
1.2) Fijándose en el mapa correspondiente a este ejercicio, comente la relación existente entre las precipitaciones y el relieve en España (hasta 1 punto).
1.3) Los principales tipos de climas, características y distribución espacial (hasta 2 puntos).

EJERCICIO 2. El mapa correspondiente a este ejercicio presenta las regiones biogeográficas. A partir del mismo responda a las siguientes cuestiones:

2.1) Indique cinco provincias por donde se distribuye la subprovincia Bética (Ilea) (hasta 1 punto).
2.2) Fijándose en el mapa correspondiente a este ejercicio. ¿Qué características hacen de las islas Canarias una región biogeográfica especial? (hasta 1 punto).
2.3) Formaciones vegetales de la España peninsular e insular (hasta 2 puntos).

PRUEBA DE ACCESO A LA UNIVERSIDAD Y PRUEBA DE ADMISIÓN

ANDALUCÍA, CEUTA, MELILLA y CENTROS en MARRUECOS

CURSO 2024-2025

GEOGRAFÍA

BLOQUE C (ejercicios de desarrollo práctico y teórico)

Puntuación máxima: 4 puntos.

En este bloque se plantean dos ejercicios de análisis y comentario a partir de mapas, gráficos, imágenes, cuadros estadísticos o textos, de los que debe responder, a su elección, SOLAMENTE 1.

Cada ejercicio tendrá un valor máximo de 4 puntos.

EJERCICIO 1. El mapa correspondiente a este ejercicio presenta el porcentaje de tierras de cultivo respecto a la superficie geográfica en cada provincia de España. Analícelo y conteste a las siguientes cuestiones:

1.1) Indique las provincias que presentan más de un 50% de tierras de cultivo respecto a la superficie geográfica (hasta 1 punto).

1.2) Fijándose en el mapa correspondiente a este ejercicio, explique las diferencias existentes entre las provincias de la costa cantábrica y las de Andalucía (hasta 1 punto).

1.3) Uso y aprovechamiento del espacio rural (hasta 2 puntos).

EJERCICIO 2. El mapa correspondiente a este ejercicio presenta la distribución del número de hoteles y categorías en España. A partir del mismo responda a las siguientes cuestiones:

2.1) Indique diez provincias que se sitúan por debajo del 1,1 % de hoteles respecto al total nacional (hasta 1 punto).

2.2) En las provincias con los números 1 y 2, observe la proporción de las distintas categorías de hoteles y razone sus diferencias (hasta 1 punto).

2.3) Significado y consecuencias de las actividades turísticas (hasta 2 puntos).

PRUEBA DE ACCESO A LA UNIVERSIDAD Y PRUEBA DE ADMISIÓN

ANDALUCÍA, CEUTA, MELILLA y CENTROS en MARRUECOS

CURSO 2024-2025

GEOGRAFÍA

BLOQUE B. EJERCICIO 1. MAPA.

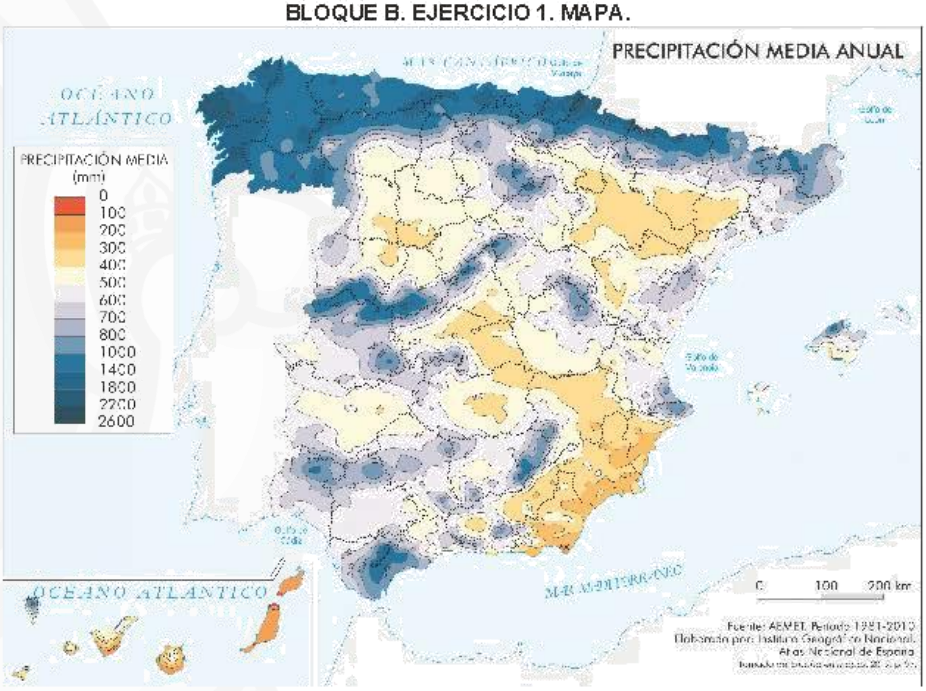

BLOQUE B. EJERCICIO 2. MAPA.

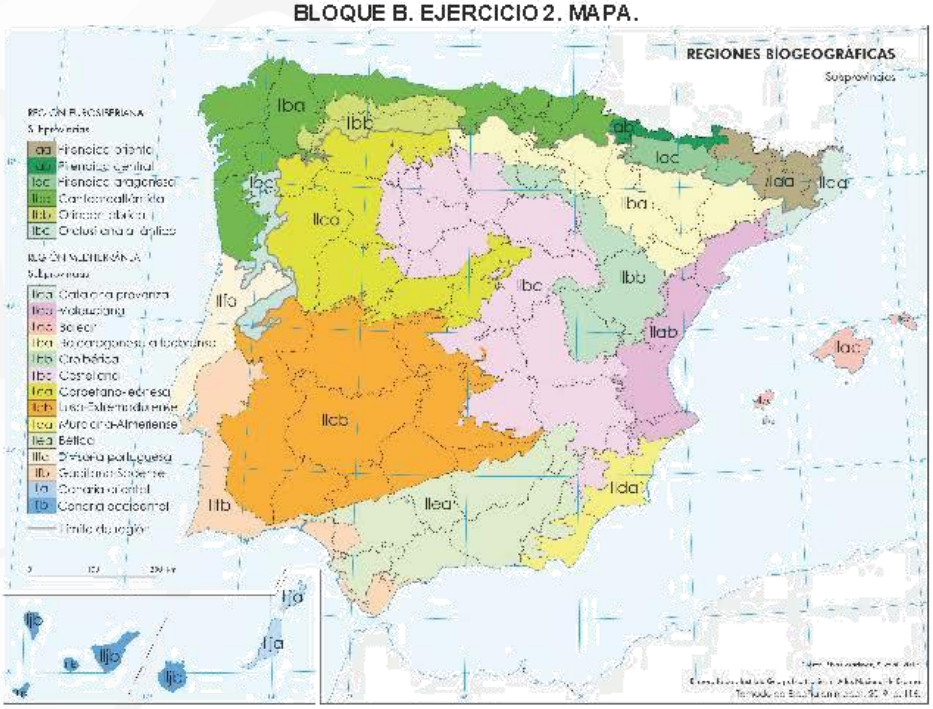

PRUEBA DE ACCESO A LA UNIVERSIDAD Y PRUEBA DE ADMISIÓN

ANDALUCÍA, CEUTA, MELILLA y CENTROS en MARRUECOS

CURSO 2024-2025

GEOGRAFÍA

BLOQUE C. EJERCICIO 1. MAPA.

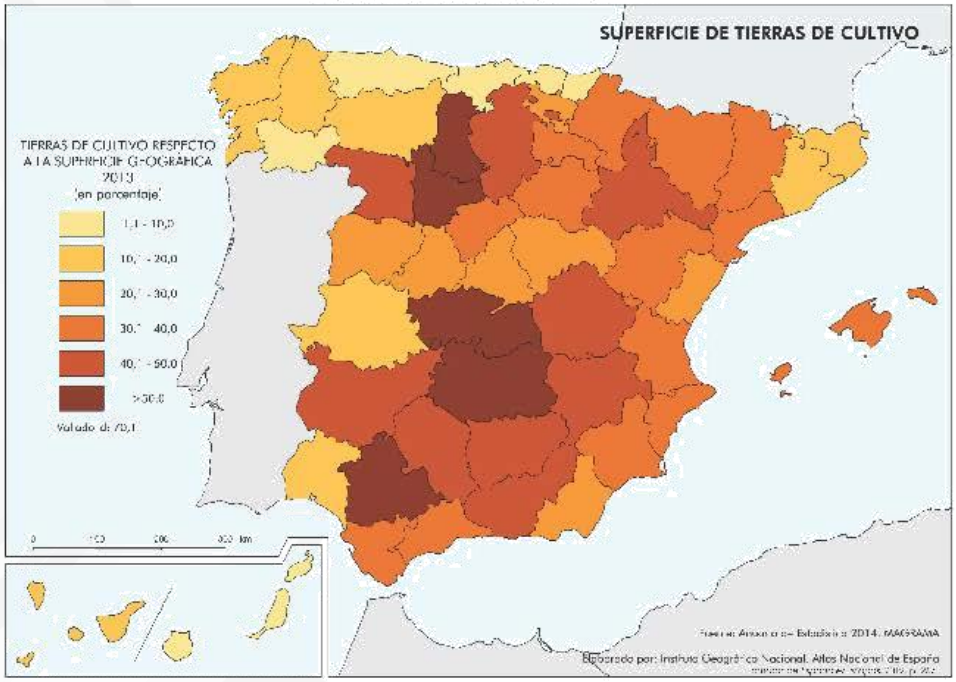

BLOQUE C. EJERCICIO 2. MAPA.

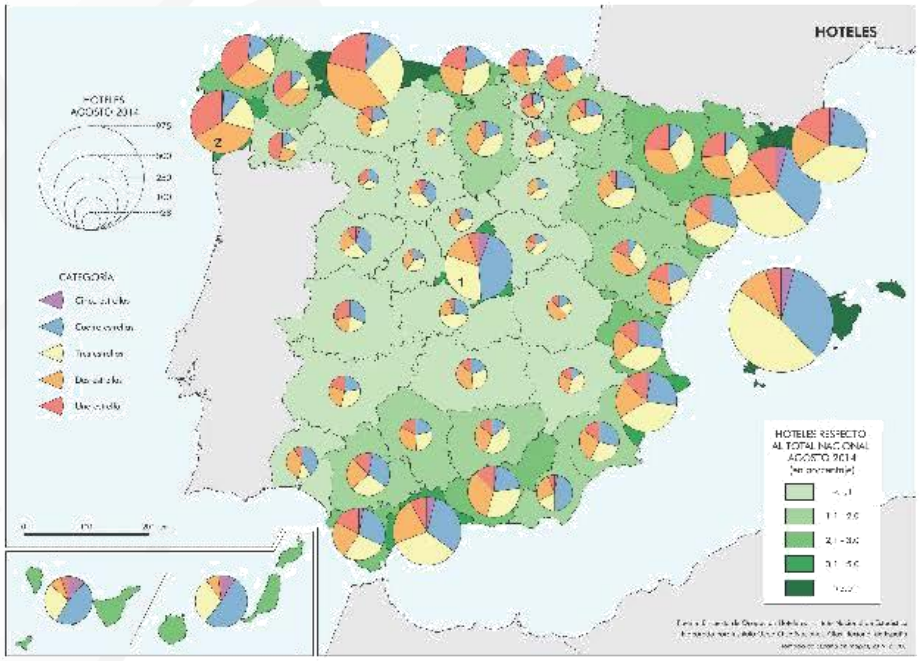

PRUEBA DE ACCESO A LA UNIVERSIDAD Y PRUEBA DE ADMISIÓN

GEOGRAFÍA

ANDALUCÍA, CEUTA, MELILLA y CENTROS en MARRUECOS

CURSO 2024-2025

Instrucciones:

a) Duración: 1 hora y 30 minutos.

b) El examen consta de tres bloques (A, B y C). En dos de los tres bloques se plantean varias preguntas, de las que debe responder al número que se indica en cada uno de ellos. En el caso de responder a más preguntas, serán tenidas en cuenta las respondidas en primer lugar.

c) Todas las cuestiones deben responderse en el papel entregado para la realización del examen y nunca en los folios que contienen los enunciados.

d) La valoración de cada respuesta se indica en el bloque correspondiente.

BLOQUE A (Glosario)

Puntuación máxima: 2 puntos.

En este bloque se plantean 8 expresiones para relacionarlas con determinados conceptos geográficos.
Cada respuesta tendrá un valor máximo de 0,25 puntos.

a) Distancia angular medida sobre un arco de meridiano expresada en grados existente entre un punto cualquiera de la superficie terrestre y el ecuador terrestre.

b) Parte más profunda, rígida y antigua de los grandes sistemas montañosos o cordilleras. Bien aflora directamente como resultado del arrasamiento producido por la erosión o bien constituye la base de una cobertera sedimentaria, afectada por un mayor o menor grado de deformación. Normalmente está formado por rocas cristalinas como granito o gneis.

c) Relativo a especies vegetales o animales que son propias y exclusivas de un determinado ámbito geográfico. En la península Ibérica hay unas 1.700, sobre todo flora de montaña, y solo en Canarias cerca de 500 (ejemplos: drago o tabaiba).

d) Proceso de renovación y reconstrucción urbana que se acompaña de un flujo de personas de clase media o alta que suele desplazar a los habitantes más pobres de las áreas de intervención.

e) Tipo de pesca realizada durante el mismo día, en las proximidades de la costa (hasta 60 millas) utilizando pequeñas embarcaciones equipadas normalmente con métodos artesanos.

f) Tipo de energía obtenida de fuentes naturales, que se ofrecen de modo continuo e inagotable como el Sol, el agua, el viento y los residuos orgánicos. Se considera una alternativa viable a las energías convencionales y su impacto ambiental es reducido.

g) Impacto que tiene la masificación turística en el tejido comercial y social de determinados barrios o ciudades. Es el impacto que tiene para el residente de un lugar el hecho de que servicios, instalaciones y comercios pasen a orientarse y concebirse pensando más en el turista que en quien vive en ese lugar permanentemente.

h) Cualquier mercancía, capitales o servicios enviados para su venta fuera del territorio nacional.

BLOQUE B (ejercicios de desarrollo práctico y teórico)

Puntuación máxima: 4 puntos.

En este bloque se plantean 2 ejercicios de análisis y comentario a partir de mapas, gráficos, imágenes, cuadros estadísticos o textos, de los que debe responder, a su elección, SOLAMENTE 1.
Cada ejercicio tendrá un valor máximo de 4 puntos.

EJERCICIO 1. En el mapa correspondiente a este ejercicio se representan los tipos de regímenes fluviales de España. Obsérvelo y conteste a las siguientes preguntas:

1.1) Identifique las unidades de relieve que presentan un régimen fluvial de montaña (hasta 1 punto).
1.2) Explique las razones de la inexistencia de redes fluviales importantes en los dos archipiélagos representados (hasta 1 punto).
1.3) Las vertientes hidrográficas españolas (hasta 2 puntos).

EJERCICIO 2. Analice los dos climogramas correspondientes a este ejercicio y conteste a las siguientes cuestiones:

2.1) Calcule el valor aproximado de amplitud térmica en cada climograma e indique qué tipo de clima representa cada uno de los climogramas (hasta 1 punto).
2.2) Explique cómo se representa la aridez mensual en los climogramas presentados y descríbala (hasta 1 punto).
2.3) Elementos y factores climáticos (hasta 2 puntos).

PRUEBA DE ACCESO A LA UNIVERSIDAD Y PRUEBA DE ADMISIÓN

ANDALUCÍA, CEUTA, MELILLA y CENTROS en MARRUECOS

CURSO 2024-2025

GEOGRAFÍA

BLOQUE C (ejercicios de desarrollo práctico y teórico)

Puntuación máxima: 4 puntos.

En este bloque se plantean 2 ejercicios de análisis y comentario a partir de mapas, gráficos, imágenes, cuadros estadísticos o textos, de los que debe responder, a su elección, SOLAMENTE 1.

Cada ejercicio tendrá un valor máximo de 4 puntos.

EJERCICIO 1. El mapa correspondiente a este ejercicio representa el porcentaje de tierras de cultivo respecto a la superficie geográfica en cada provincia de España. Obsérvelo y conteste las siguientes cuestiones:

1.1) Indique el nombre de las provincias en las que el porcentaje de tierras de cultivo es superior al 50 % (hasta 1 punto).

1.2) Fíjese de nuevo en el mapa anterior, explique las causas del menor porcentaje de superficie de tierras de cultivo (1,1-10,0 %) en las cuatro provincias de la cornisa cantábrica (hasta 1 punto).

1.3) Nuevas funciones del espacio rural: el paisaje (hasta 2 puntos).

EJERCICIO 2. Las pirámides de población de este ejercicio muestran la estructura por edad y sexo de la población española en 1930 y en 2021. Obsérvelas y conteste a las siguientes cuestiones:

2.1) Compare la población de 0 a 14 años en ambas figuras y analice las diferencias que observa (hasta 1 punto).

2.2) Explique el modelo de estructura demográfica que representa cada una de estas pirámides. Razone la respuesta argumentando brevemente las causas que dan lugar a ambos modelos (hasta 1 punto).

2.3) Los movimientos migratorios (hasta 2 puntos).

PRUEBA DE ACCESO A LA UNIVERSIDAD Y PRUEBA DE ADMISIÓN

GEOGRAFÍA

ANDALUCÍA, CEUTA, MELILLA y CENTROS en MARRUECOS

CURSO 2024-2025

BLOQUE B. EJERCICIO 1. MAPA.

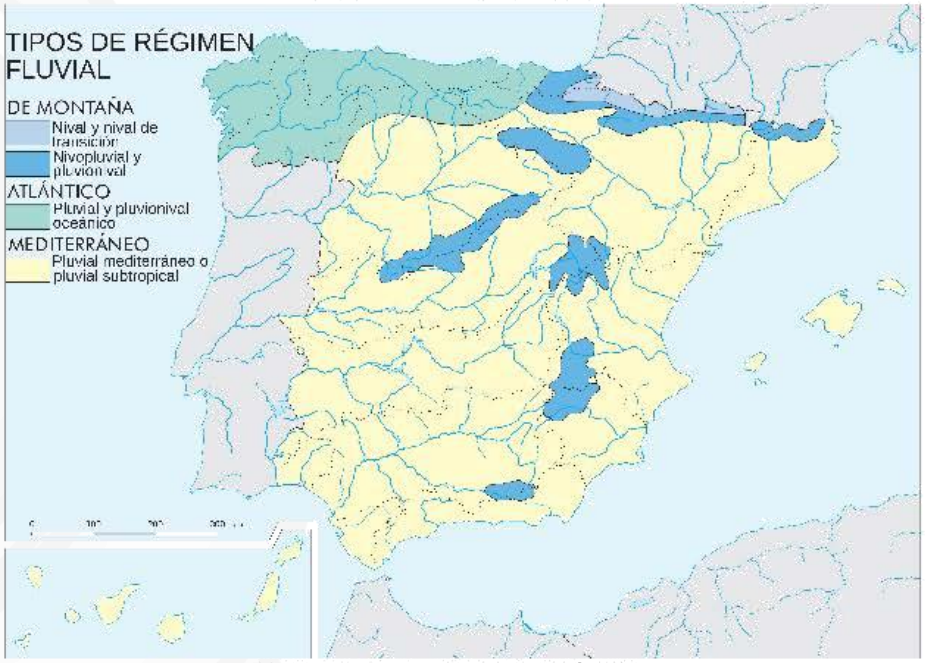

BLOQUE B. EJERCICIO 2. GRÁFICOS.

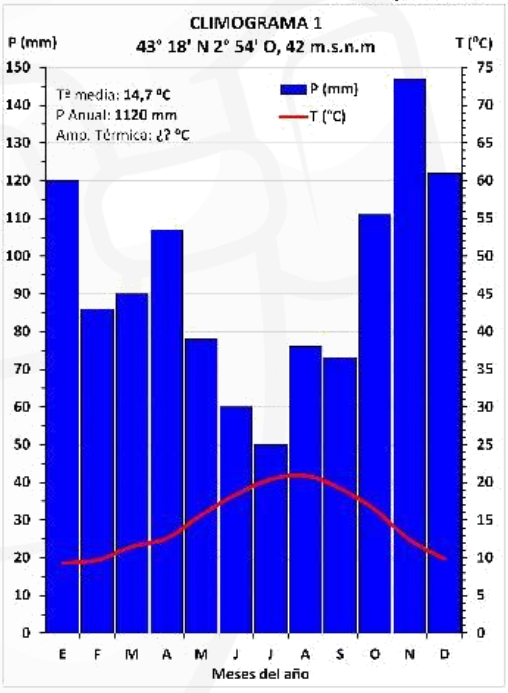

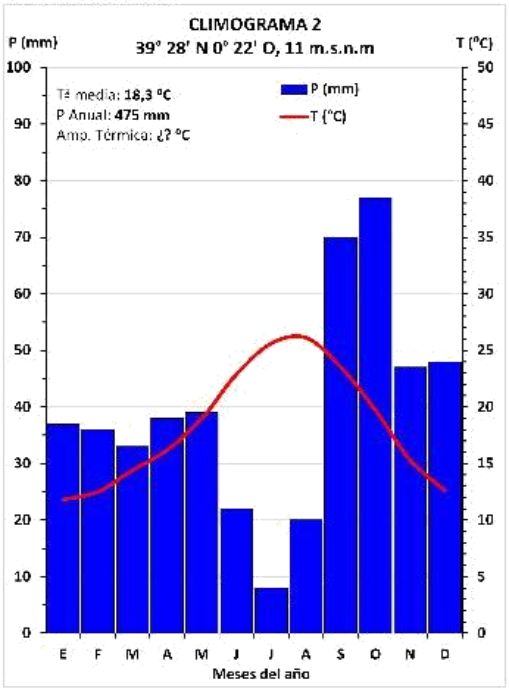

PRUEBA DE ACCESO A LA UNIVERSIDAD Y PRUEBA DE ADMISIÓN

GEOGRAFÍA

ANDALUCÍA, CEUTA, MELILLA y CENTROS en MARRUECOS

CURSO 2024-2025

BLOQUE C. EJERCICIO 1. MAPA.

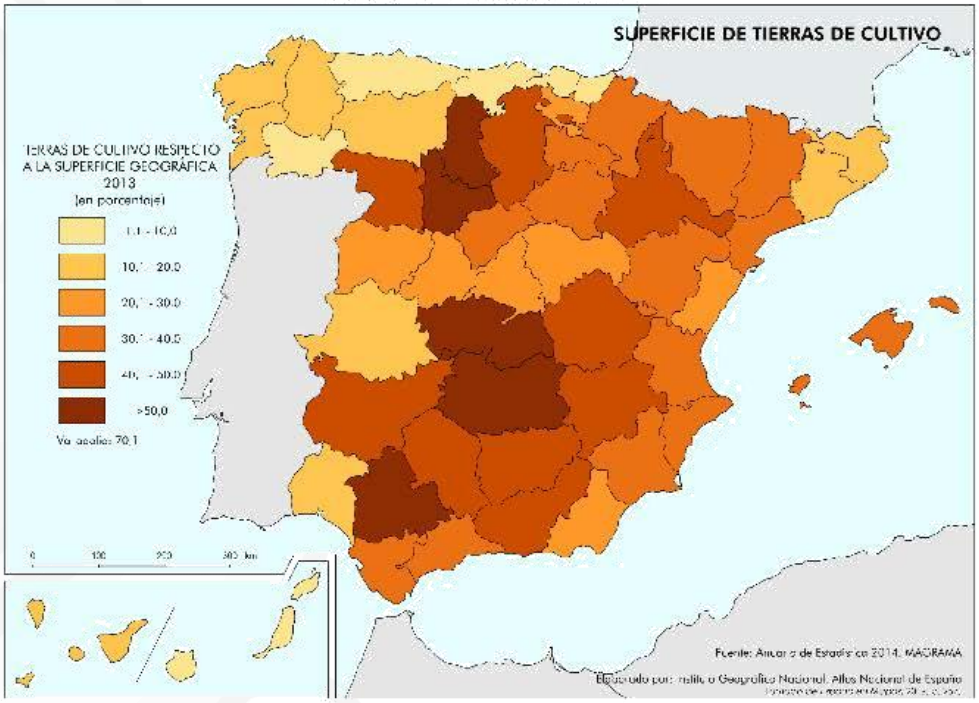

BLOQUE C. EJERCICIO 2. GRÁFICOS.

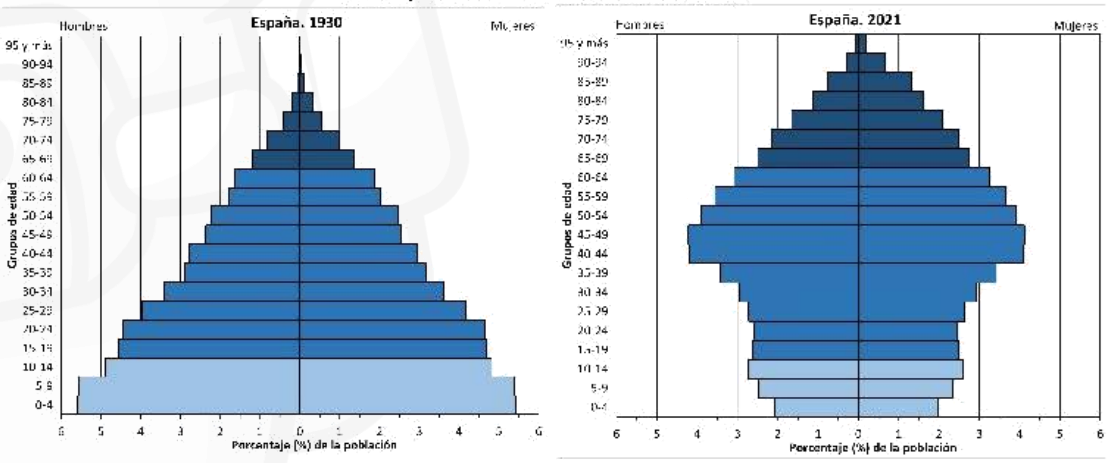

PRUEBA DE ACCESO A LA UNIVERSIDAD Y PRUEBA DE ADMISIÓN

GEOGRAFÍA

ANDALUCÍA, CEUTA, MELILLA y CENTROS en MARRUECOS

CURSO 2024-2025

Instrucciones:

a) Duración: 1 hora y 30 minutos.

b) Todas las cuestiones deben responderse en el papel entregado para la realización del examen y nunca en los folios que contienen los enunciados.

c) El examen consta de tres bloques (A, B y C). En dos de los tres bloques se plantean varias preguntas, de las que debe responder al número que se indica en cada uno de ellos. En el caso de responder a más preguntas, serán tenidas en cuenta las respondidas en primer lugar.

d) La valoración de cada respuesta se indica en el bloque correspondiente.

BLOQUE A (GLOSARIO)

Puntuación máxima: 2 puntos.

En este bloque se plantean 8 expresiones para relacionarlas con determinados conceptos geográficos.
Cada respuesta tendrá un valor máximo de 0,25 puntos.

a) Semicircunferencia imaginaria que rodea a la Tierra de norte a sur, uniendo los polos, y que sirve de referencia para determinar la longitud geográfica.
b) Conjunto formado por un río, sus afluentes y los cursos de agua tributarios de estos últimos, también llamados subafluentes.
c) Relativo a especies vegetales o animales que son propias y exclusivas de un determinado ámbito geográfico. En la península Ibérica hay unas mil setecientas, sobre todo flora de montaña, y solo en Canarias, cerca de quinientas (ejemplos: drago o tabaiba).
d) Parte de una explotación agrícola cultivada con técnicas de rotación, que queda temporalmente sin cultivar, con el objetivo de que se regenere el suelo de forma natural durante ese tiempo.
e) Proceso de renovación y reconstrucción urbana que se acompaña de un flujo de personas de clase media o alta que suele desplazar a los habitantes más pobres de las áreas de intervención.
f) Zonas del mar especialmente aptas para la pesca por la presencia en ellas de gran número de peces donde los barcos calan.
g) Cantidad de energía primaria que un país necesita importar para poder abastecerse, ya sea en forma de calor, electricidad o para el transporte.
h) Compañías mayoristas que integran todas las fases del negocio turístico. Estas agencias especializadas organizan el turismo, sobre todo el internacional. Manejan paquetes turísticos que incluyen estancias, visitas y el viaje.

BLOQUE B (ejercicios de desarrollo práctico y teórico)

Puntuación máxima: 4 puntos.

En este bloque se plantean dos ejercicios de análisis y comentario a partir de mapas, gráficos, imágenes, cuadros estadísticos o textos, de los que debe responder, a su elección, SOLAMENTE 1.
Cada ejercicio tendrá un valor máximo de 4 puntos.

EJERCICIO 1. El mapa correspondiente a este ejercicio presenta la altitud sobre el nivel del mar en España. A partir del mismo responda a las siguientes cuestiones:

1.1) Indique el nombre de las unidades de relieve señaladas con los números 1 al 10 (hasta 1 punto).
1.2) Identifique y describa las características de los relieves señalados con las letras A y B (hasta 1 punto).
1.3) La Meseta y sus unidades interiores (hasta 2 puntos).

EJERCICIO 2. Los gráficos correspondientes a este ejercicio representan dos climas característicos de España. Analícelos y responda a las preguntas siguientes:

2.1) Indique qué tipo de clima representa cada uno de los climogramas y en qué lugar se localizan (hasta 1 punto).
2.2) Explique las variaciones estacionales de precipitación de cada uno de los climogramas (hasta 1 punto).
2.3) Elementos y factores climáticos (hasta 2 puntos).

PRUEBA DE ACCESO A LA UNIVERSIDAD Y PRUEBA DE ADMISIÓN

ANDALUCÍA, CEUTA, MELILLA y CENTROS en MARRUECOS

CURSO 2024-2025

GEOGRAFÍA

BLOQUE C (ejercicios de desarrollo práctico y teórico)

Puntuación máxima: 4 puntos.

En este bloque se plantean dos ejercicios de análisis y comentario a partir de mapas, gráficos, imágenes, cuadros estadísticos o textos, de los que debe responder, a su elección, SOLAMENTE 1.

Cada ejercicio tendrá un valor máximo de 4 puntos.

EJERCICIO 1. Observe las pirámides de población de España de 1900 y de 2015 y responda a las preguntas siguientes:

1.1) Indique los modelos demográficos correspondientes a cada pirámide de población y sus principales diferencias (hasta 1 punto).

1.2) Compare la población de 65 años y más en ambas figuras y explique las diferencias. ¿Qué consecuencias socioeconómicas implican? (hasta 1 punto).

1.3) Los movimientos migratorios (hasta 2 puntos).

EJERCICIO 2. El mapa correspondiente a este ejercicio presenta la red de autopistas y de autovías (tanto libres como de peaje) de la península Ibérica en el año 2015. Analícelo y responda a las preguntas siguientes:

2.1) Fijándose en el mapa correspondiente a este ejercicio, indique cuatro trazados de la red radial de carreteras española (hasta 1 punto).

2.2) Fijándose en el mapa correspondiente a este ejercicio, explique la configuración de la red de carreteras en Andalucía (hasta 1 punto).

2.3) Sistemas y medios de transporte en España (hasta 2 puntos).

PRUEBA DE ACCESO A LA UNIVERSIDAD Y PRUEBA DE ADMISIÓN

GEOGRAFÍA

ANDALUCÍA, CEUTA, MELILLA y CENTROS en MARRUECOS

CURSO 2024-2025

BLOQUE B. EJERCICIO 1. MAPA.

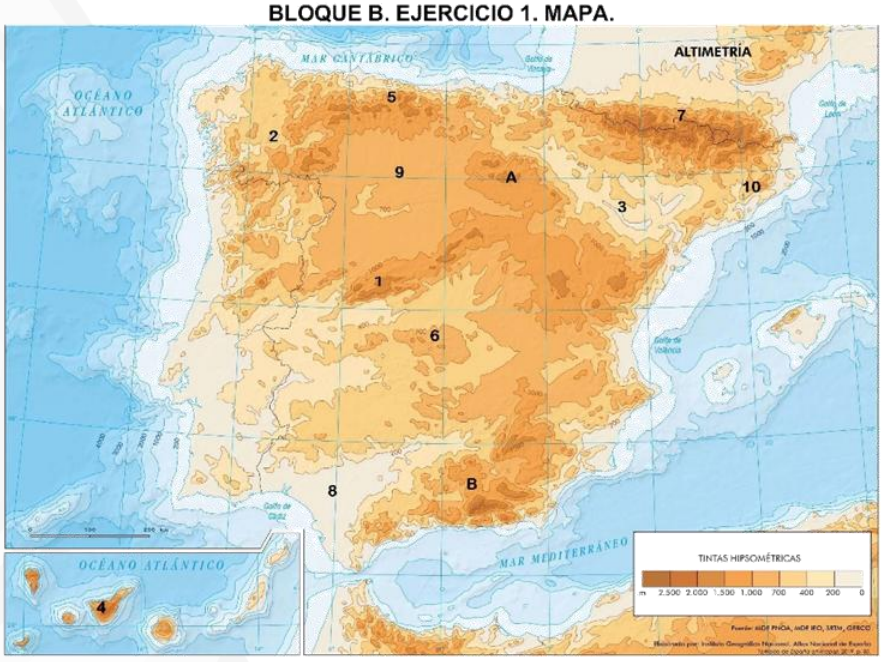

BLOQUE B. EJERCICIO 2. GRÁFICOS.

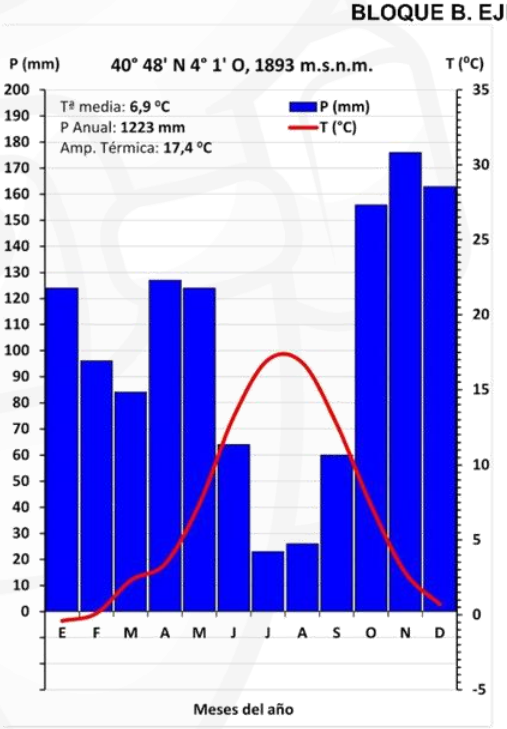

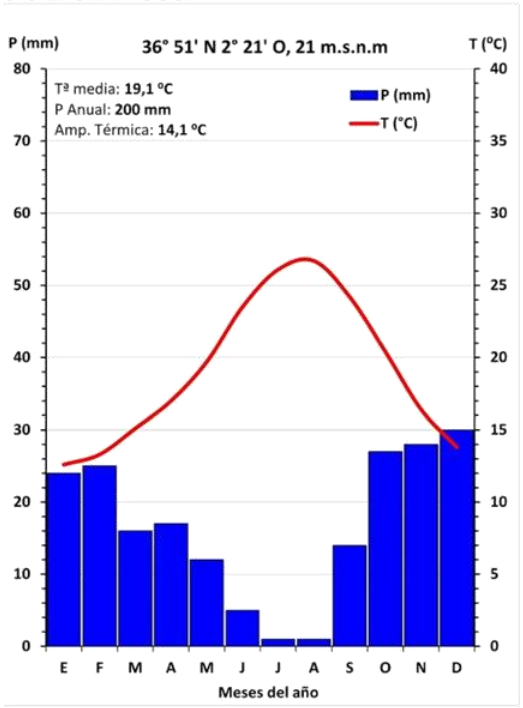

PRUEBA DE ACCESO A LA UNIVERSIDAD Y PRUEBA DE ADMISIÓN

GEOGRAFÍA

ANDALUCÍA, CEUTA, MELILLA y CENTROS en MARRUECOS

CURSO 2024-2025

BLOQUE C. EJERCICIO 1. GRÁFICOS.

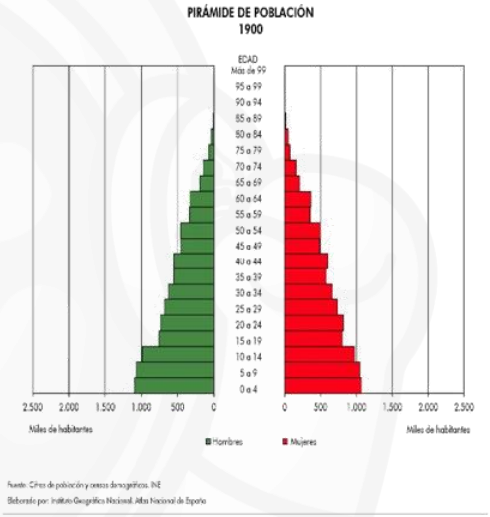

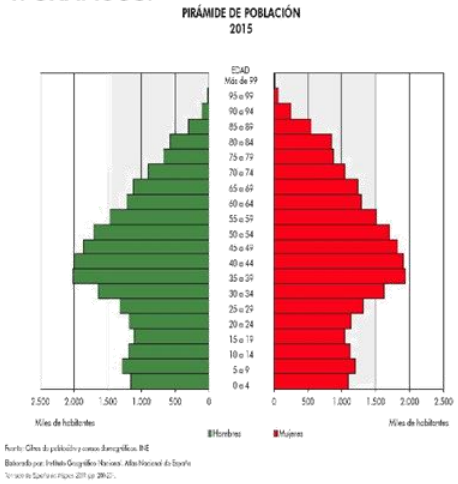

BLOQUE C. EJERCICIO 2. MAPA.

