PRUEBA DE ACCESO A LA UNIVERSIDAD Y PRUEBA DE ADMISIÓN

GEOGRAFÍA

ANDALUCÍA, CEUTA, MELILLA y CENTROS en MARRUECOS

CURSO 2025-2026

Instrucciones para la realización del examen

a) Duración: 1 hora y 30 minutos.

b) El examen consta de cuatro bloques de ejercicios:

1. Ejercicio de tipo competencial (**EJERCICIO 1**). El alumnado responderá a las cuestiones vinculadas al mismo. **No se ofrecen opciones**.
2. Ejercicio de tipo competencial (**EJERCICIO 2**). El alumnado responderá a las cuestiones vinculadas al mismo. **No se ofrecen opciones**.
3. Ejercicios de tipo práctico. Se presentan dos ejercicios (**EJERCICIO 3.1** y **EJERCICIO 3.2**) de los cuales se deberá responder solo a uno de los dos ejercicios.
4. Ejercicio de identificación de términos geográficos a partir de su definición. Se ofrecen dos ejercicios (**EJERCICIO 4.1** y **EJERCICIO 4.2**), debiendo el alumnado optar por uno de ellos.

c) Todos los ejercicios han de ser respondidos en el **cuadernillo del examen primero** y, solo si hiciese falta, en las **hojas auxiliares** entregadas por el personal autorizado, identificando claramente cada uno de ellos con su número de bloque, de ejercicio y de apartado.

BLOQUE 1

EJERCICIO 1. A partir de la imagen y del texto que la acompaña, responda a las cuestiones que aparecen a continuación (hasta 2,5 puntos):

a) Indique, de norte a sur, cinco ríos españoles de la vertiente atlántica. Estos cinco ríos deben aparecer en el mapa (hasta 0,5 puntos).

b) Cuando se afirma que en los archipiélagos españoles no existen auténticos ríos, ¿qué se está queriendo expresar con esa idea? ¿Qué características geográficas pueden explicar que no haya cursos fluviales permanentes como los que encontramos en la península ibérica? (hasta 0,75 puntos).

c) Indique el número y nombre de las demarcaciones hidrográficas insulares que existen en España (hasta 0,5 puntos).

d) Explique los factores condicionantes de la red hidrográfica española (hasta 0,75 puntos).



PRUEBA DE ACCESO A LA UNIVERSIDAD Y PRUEBA DE ADMISIÓN

GEOGRAFÍA

ANDALUCÍA, CEUTA, MELILLA y CENTROS en MARRUECOS

CURSO 2025-2026

"El territorio español, como todas las zonas emergidas, tiene un relieve estructurado en cuencas vertientes, en cada una de las cuales una red de cauces, que va confluyendo en uno principal, se encarga de conducir el agua hacia el mar. Con la entrada en vigor de la Directiva Marco del Agua (2000/60/CE) aparecieron los términos de masa de agua y demarcación hidrográfica. Se definieron un total de 4.630 masas de agua en España, de las cuales 3.792 corresponden a la categoría de río, 319 a lagos, 168 a aguas de transición y 351 son masas de agua costeras. En el mapa superior cada demarcación hidrográfica está representada por un color. Las demarcaciones hidrográficas peninsulares son quince. Además, en España se tienen las **** demarcaciones hidrográficas insulares y, aparte de estas, las dos demarcaciones hidrográficas de Ceuta y Melilla, las cuales abarcan el territorio de las dos ciudades autónomas. La cuenca con mayor número de masas de agua es la del **** con 699. La cuenca del ***** es la de más superficie de la península, con casi 100.000 km^2, pero si se restringe al territorio español, la más extensa es la del ****, con 85.000 km^2."

Modificado de IGN (2015). Aguas continentales y marinas. *Atlas Nacional de España del siglo XXI*. Instituto Geográfico Nacional. Recuperado de: https://atlasnacional.ign.es/wane/Aguas_continentales_y_marinas (útimo acceso:23 de febrero de 2026)

BLOQUE 2

EJERCICIO 2. El mapa correspondiente a este ejercicio presenta la red de autopistas y de autovías (tanto libres como de peaje) de la península ibérica en el año 2015. Analícelo y responda a las preguntas siguientes (hasta 2,5 puntos):

a) El mapa representa algunas provincias españolas y sus capitales de provincia. Indique de este a oeste tanto los nombres de las provincias como los de sus capitales (hasta 1 punto).

b) Fijándose en el mapa correspondiente a este ejercicio, indique cuatro trazados de la red radial de carreteras española (hasta 0,75 puntos).

c) Explique el origen de la red de carreteras española y el papel que Sevilla jugó en esta (hasta 0,75 puntos).

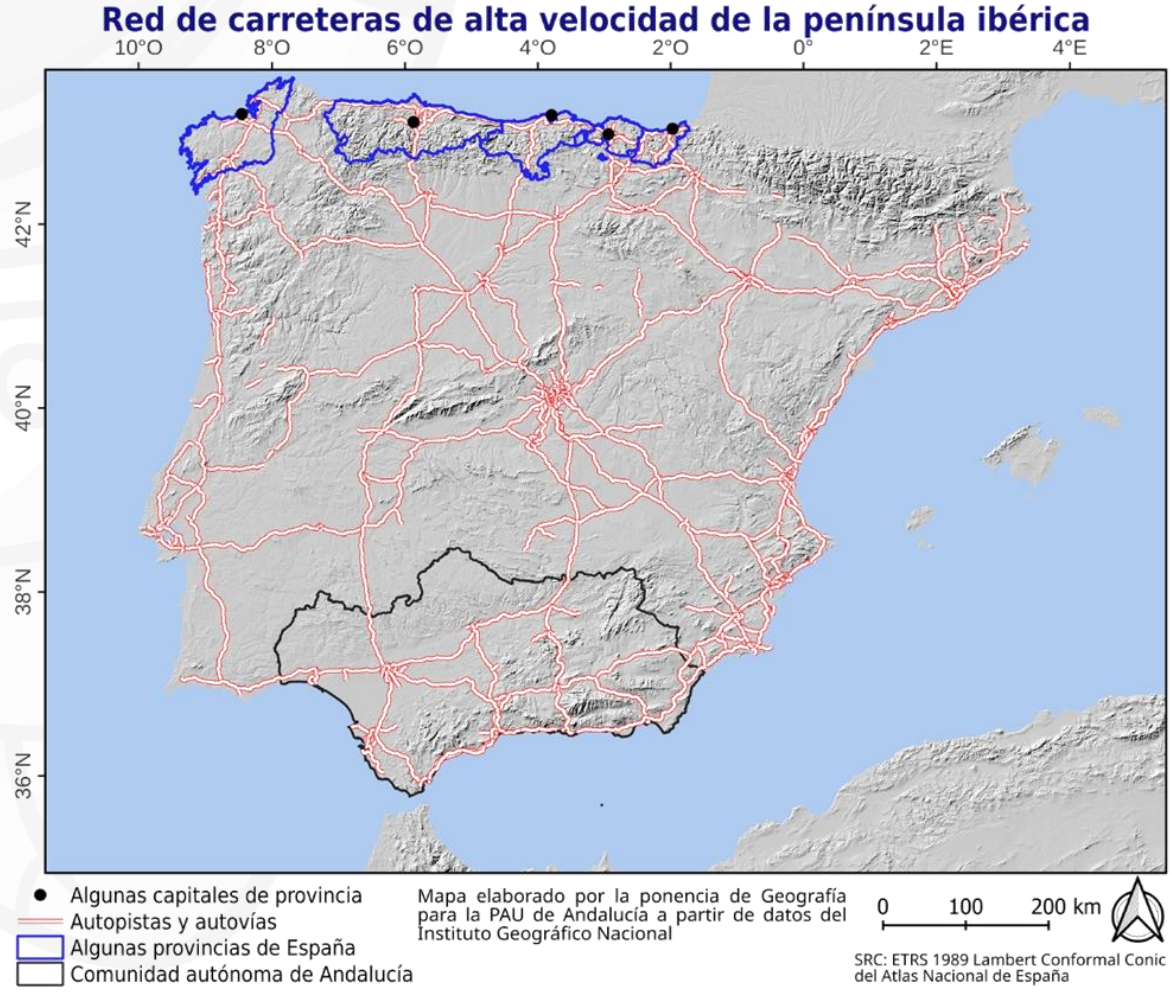

PRUEBA DE ACCESO A LA UNIVERSIDAD Y PRUEBA DE ADMISIÓN

GEOGRAFÍA

ANDALUCÍA, CEUTA, MELILLA y CENTROS en MARRUECOS

CURSO 2025-2026

BLOQUE 3

Se presentan dos ejercicios (**EJERCICIO 3.1** y **EJERCICIO 3.2**) de los cuales el alumnado debe responder solo a uno de ellos.

EJERCICIO 3.1. A la vista del climograma que se presenta, responda a las siguientes cuestiones (hasta 2,5 puntos):

a) Realice un análisis de los elementos termo-pluviométricos representados para, en base a ellos, indicar de qué tipo de clima se trata. Indique la latitud de la estación meteorológica (hasta 1,25 puntos).

b) Explique los principales factores climáticos que influyen en este clima y señale en qué zonas de España podemos encontrarlo (hasta 1,25 puntos).

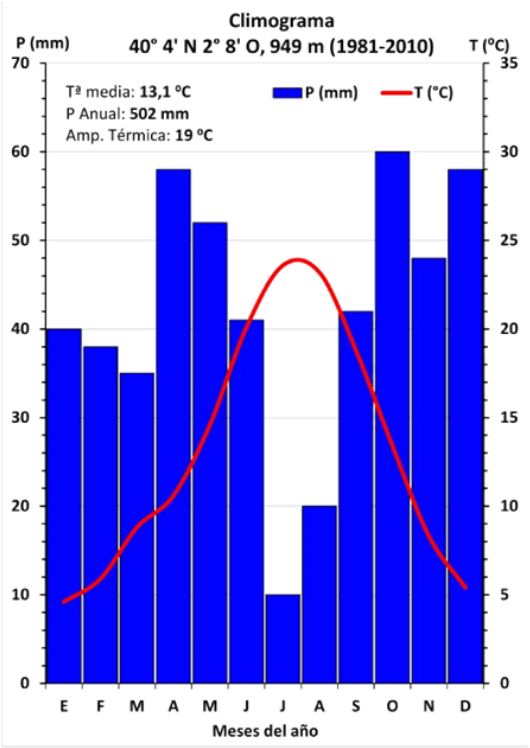

EJERCICIO 3.2. A la vista de la pirámide de población que se presenta, responda a las siguientes cuestiones (hasta 2,5 puntos):

a) Indique qué tipo de estructura presenta y describa sus características fundamentales (hasta 1,25 puntos).

b) Explique cuáles son las circunstancias que están determinando la estructura por edad y sexo de la provincia de Zamora (hasta 1,25 puntos).

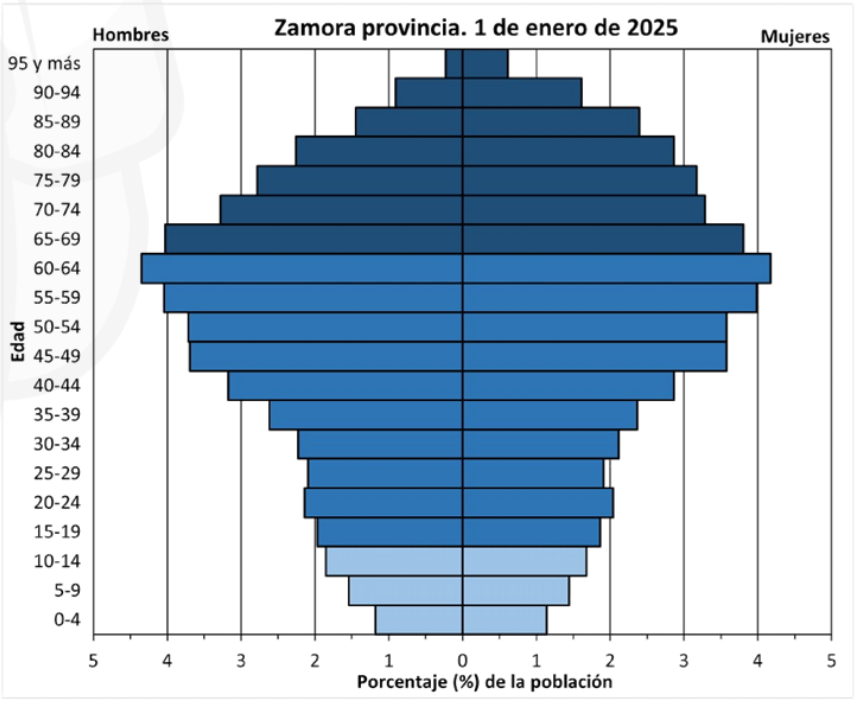

PRUEBA DE ACCESO A LA UNIVERSIDAD Y PRUEBA DE ADMISIÓN

GEOGRAFÍA

ANDALUCÍA, CEUTA, MELILLA y CENTROS en MARRUECOS

CURSO 2025-2026

BLOQUE 4

En este bloque se plantean 10 expresiones para relacionarlas con determinados conceptos geográficos. Se presentan dos ejercicios (**EJERCICIO 4.1** y **EJERCICIO 4.2**) de los cuales el alumnado debe responder solo a uno de ellos.

EJERCICIO 4.1 (hasta 2,5 puntos, 0,5 puntos cada una)

a) Cambio estable y duradero en las características climáticas en periodos de tiempo que van desde décadas hasta millones de años. En general, se trata de cambios de orden natural, pero actualmente, se los encuentra asociados con el impacto humano sobre el planeta.

b) Terreno bajo y pantanoso que es invadido recurrentemente por las aguas del mar a través de las mareas o por las de los ríos en sus crecidas. Se trata de una zona de humedal, con ecosistemas frágiles, y donde predomina la sedimentación de fracción fina y pendientes muy bajas.

c) Cada uno de los dos momentos del año en los que el Sol se sitúa en el plano del ecuador terrestre, alcanzando sobre este el cenit al mediodía, y en los que los días son iguales a las noches en toda la Tierra.

d) Desplazamiento masivo de la población residente en el medio rural hacia las ciudades. Se trata de un movimiento migratorio interior que normalmente afecta a población joven, tanto masculina como femenina, que se desplaza a las ciudades en busca de empleo.

e) Conjunto de ciudades independientes que crecen espacialmente y se unen formando un continuo urbano mediante la unión física de sus periferias.

EJERCICIO 4.2 (hasta 2,5 puntos, 0,5 puntos cada una)

a) Relación existente entre la representación reducida de una distancia sobre un mapa y su tamaño real sobre el terreno.

b) Relativo a especies vegetales o animales que son propias y exclusivas de un determinado ámbito geográfico. En la península ibérica hay unas mil setecientas, sobre todo flora de montaña, y solo en Canarias cerca de quinientas (ejemplos: drago o tabaiba).

c) Terreno elevado y llano o ligeramente inclinado de gran extensión.

d) Tipo de explotación agro-silvo-pastoril propia de la zona mediterránea y del sur de España, en la que se combinan actividades agrícolas, ganaderas y forestales en zonas ahuecadas de bosque mediterráneo, dando lugar a un paisaje cultural creado y mantenido por la población local.

e) Compañías mayoristas que integran todas las fases del negocio turístico. Estas agencias especializadas organizan el turismo, sobre todo el internacional. Manejan paquetes turísticos que incluyen estancias, visitas y el viaje.

PRUEBA DE ACCESO A LA UNIVERSIDAD Y PRUEBA DE ADMISIÓN

ANDALUCÍA, CEUTA, MELILLA y CENTROS en MARRUECOS

CURSO 2025-2026

GEOGRAFÍA

Instrucciones para la realización del examen

a) Duración: 1 hora y 30 minutos.

b) El examen consta de cuatro bloques de ejercicios:

1. Ejercicio de tipo competencial (**EJERCICIO 1**). El alumnado responderá a las cuestiones vinculadas al mismo. **No se ofrecen opciones**.
2. Ejercicio de tipo competencial (**EJERCICIO 2**). El alumnado responderá a las cuestiones vinculadas al mismo. **No se ofrecen opciones**.
3. Ejercicios de tipo práctico. Se presentan dos ejercicios (**EJERCICIO 3.1** y **EJERCICIO 3.2**) de los cuales se deberá responder solo a uno de los dos ejercicios.
4. Ejercicio de identificación de términos geográficos a partir de su definición. Se ofrecen dos ejercicios (**EJERCICIO 4.1** y **EJERCICIO 4.2**), debiendo el alumnado optar por uno de ellos.

c) Todos los ejercicios han de ser respondidos en el **cuadernillo del examen primero** y, solo si hiciese falta, en las **hojas auxiliares** entregadas por el personal autorizado, identificando claramente cada uno de ellos con su número de bloque, de ejercicio y de apartado.

BLOQUE 1

EJERCICIO 1. En el mapa correspondiente a este ejercicio aparece el reparto de usos del agua por demarcaciones hidrográficas. A partir del mismo y del texto que lo acompaña, responda a las cuestiones que aparecen a continuación (hasta 2,5 puntos):

a) Diga con qué ríos se identifican las demarcaciones hidrográficas enumeradas de la 1 a la 5 (hasta 0,5 puntos).

b) Explique la causa del reparto de uso de aguas en las demarcaciones 5 y 6 (hasta 0,5 puntos).

c) Razone a qué se deben los contrastes de volumen de agua utilizada entre las cuencas 1, 3 y 7 (hasta 0,5 puntos).

d) Como señala el texto existen diferentes usos del agua. Explique a qué se deben, a nivel de España, los contrastes de volumen de agua utilizada entre las diferentes cuencas y su distribución entre usos (hasta 1 punto).

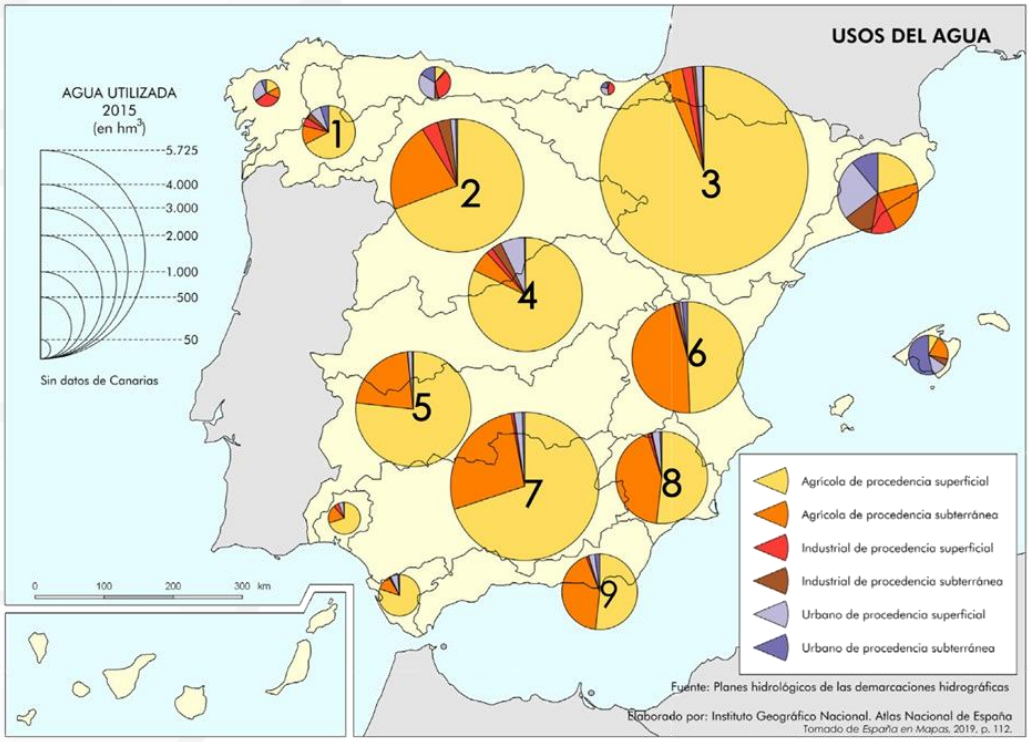

PRUEBA DE ACCESO A LA UNIVERSIDAD Y PRUEBA DE ADMISIÓN

ANDALUCÍA, CEUTA, MELILLA y CENTROS en MARRUECOS

CURSO 2025-2026

GEOGRAFÍA

"La gestión de los embalses y de los usos del agua se realiza por las demarcaciones hidrográficas mediante los planes hidrológicos. El objetivo general se asienta en un uso sostenible del recurso, teniendo en cuenta que el uso prioritario del agua es la alimentación humana (agua de boca); en segundo lugar, se encuentran los usos ambientales, que en ríos regulados y alterados se tratan de cumplir con caudales ambientales y medidas de restauración fluvial; y, por último, aparecen los usos económicos, tanto agrarios como industriales."

IGN (2015). Aguas continentales y marinas. *Atlas Nacional de España*. Instituto Geográfico Nacional. Recuperado de: https://atlasnacional.ign.es/wane/Aguas_continentales_y_marinas (útimo acceso: 6 de marzo de 2026).

BLOQUE 2

EJERCICIO 2. (hasta 2,5 puntos): El gráfico corresponde al plano de la ciudad de Barcelona. Observe la imagen y responda a las cuestiones que se presentan a continuación (hasta 2,5 puntos):

a) Diga los tipos de plano urbano correspondientes a las tres superficies delimitadas por polígonos azules, indicando el periodo histórico en que se conformaron (hasta 0,75 puntos).
b) Defina y caracterice los tipos de plano urbano de las zonas con las letras A y C (hasta 0,75 puntos).
c) Explique el papel de Barcelona en el sistema de ciudades español (hasta 1 punto).

Ortofotografía de parte de la ciudad de Barcelona



Mapa elaborado por la ponencia de Geografía para la PAU de Andalucía a partir del PNOA del Instituto Geográfico Nacional

SRC: ETRS89 / UTM zone 30N

0 500 1,000 1,500 m

PRUEBA DE ACCESO A LA UNIVERSIDAD Y PRUEBA DE ADMISIÓN

ANDALUCÍA, CEUTA, MELILLA y CENTROS en MARRUECOS

CURSO 2025-2026

GEOGRAFÍA

BLOQUE 3

Se presentan dos ejercicios (**EJERCICIO 3.1** y **EJERCICIO 3.2**) de los cuales el alumnado debe responder solo a uno de ellos.

EJERCICIO 3.1. A la vista del climograma que se presenta, responda a las siguientes cuestiones (hasta 2,5 puntos):

a) Realice un análisis de los elementos termopluviométricos representados para, en base a ellos, indicar de qué tipo de clima se trata (hasta 1,25 puntos).

b) Explique los principales factores climáticos que influyen en este clima y señale en qué zonas de España podemos encontrarlo (hasta 1,25 puntos).

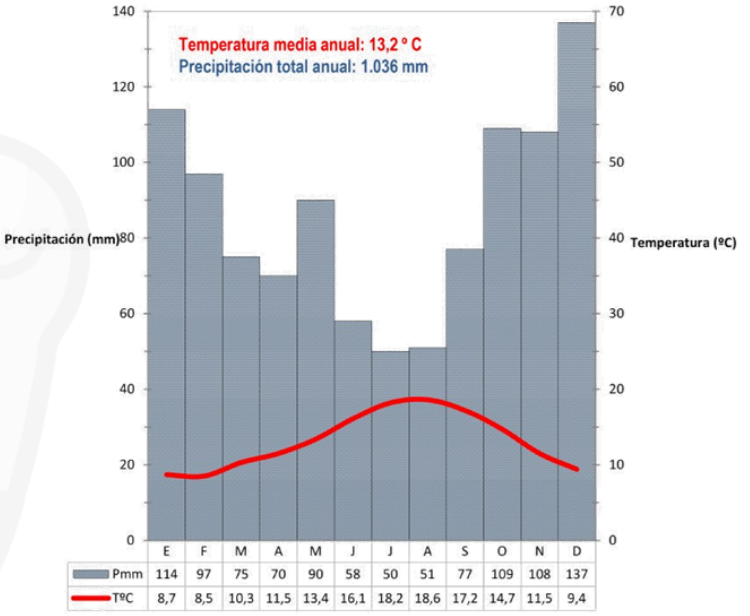

	E	F	M	A	M	J	J	A	S	O	N	D
Pmm	114	97	75	70	90	58	50	51	77	109	108	137
TºC	8,7	8,5	10,3	11,5	13,4	16,1	18,2	18,6	17,2	14,7	11,5	9,4

EJERCICIO 3.2. A la vista de la pirámide de población de España (año 2021) que se presenta, responda a las siguientes cuestiones (hasta 2,5 puntos):

a) Indique qué tipo de estructura presenta y describa sus características fundamentales (hasta 1,25 puntos).

b) A partir de ella explique cuáles son las circunstancias que están determinando la estructura y composición de la población española (hasta 1,25 puntos).

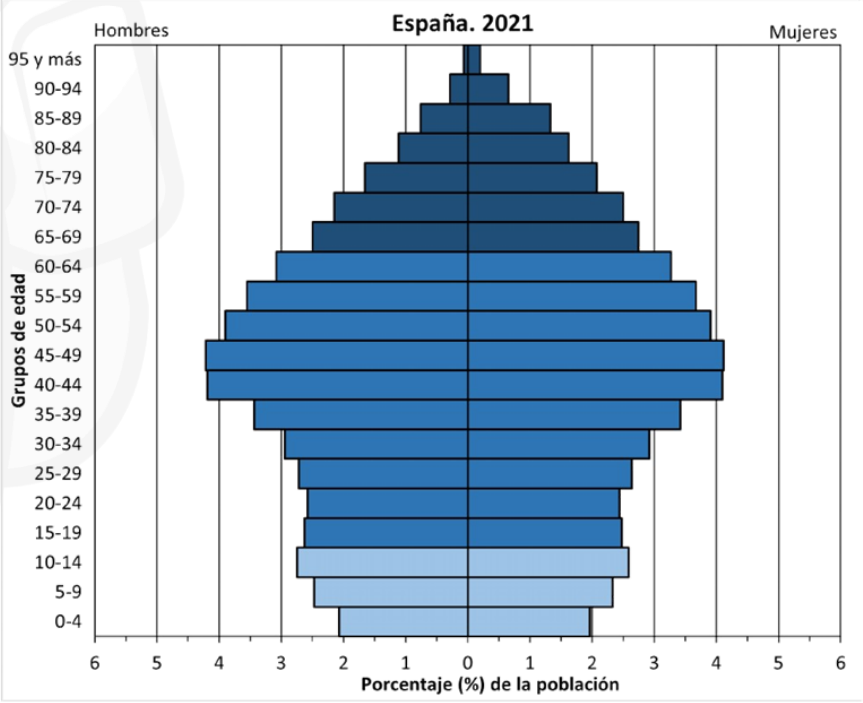

PRUEBA DE ACCESO A LA UNIVERSIDAD Y PRUEBA DE ADMISIÓN

GEOGRAFÍA

ANDALUCÍA, CEUTA, MELILLA y CENTROS en MARRUECOS

CURSO 2025-2026

BLOQUE 4

En este bloque se plantean 10 expresiones para relacionarlas con determinados conceptos geográficos. Se presentan dos ejercicios (**EJERCICIO 4.1** y **EJERCICIO 4.2**) de los cuales el alumnado debe responder solo a uno de ellos.

EJERCICIO 4.1 (hasta 2,5 puntos, 0,5 puntos cada una)

a) Tipo de pesca realizada durante el mismo día, en las proximidades de la costa (hasta 60 millas) utilizando pequeñas embarcaciones equipadas normalmente con métodos artesanos.

b) Conjunto de vías de progreso económico, social y político capaces de satisfacer las necesidades actuales sin comprometer los recursos y posibilidades de las futuras generaciones.

c) Tipo de bosque en el que las plantas o formaciones vegetales que lo componen mantienen la hoja todo el año. En España son características del clima y región biogeográfica mediterránea. Especies representativas serían la encina, el alcornoque y el pino.

d) Material en bruto que es extraído de la naturaleza, procedente del subsuelo, de la agricultura o de la explotación forestal, que es utilizado y transformado en los procesos industriales para la elaboración de bienes de consumo.

e) Conjunto formado por varias islas que se encuentran próximas entre sí.

EJERCICIO 4.2 (hasta 2,5 puntos, 0,5 puntos cada una)

a) Número máximo de turistas que un espacio puede albergar sin llegar a deteriorarse por ello.

b) Relación existente entre la representación reducida de una distancia sobre un mapa y su tamaño real sobre el terreno.

c) Conjunto de medios e infraestructuras que permiten el desplazamiento de personas, mercancías e información entre lugares geográficos. Desempeña un importante papel económico y en la organización territorial.

d) Franja costera cubierta temporalmente de agua en la marea alta y la franja de agua cercana a la costa hasta allí donde la luz llega aún al fondo.

e) Relativo a especies vegetales o animales que son propias y exclusivas de un determinado ámbito geográfico. En la península ibérica hay unas mil setecientas, sobre todo flora de montaña, y solo en Canarias cerca de quinientas (ejemplos: drago o tabaiba).

PRUEBA DE ACCESO A LA UNIVERSIDAD Y PRUEBA DE ADMISIÓN

GEOGRAFÍA

ANDALUCÍA, CEUTA, MELILLA y CENTROS en MARRUECOS

CURSO 2025-2026

Instrucciones para la realización del examen

a) Duración: 1 hora y 30 minutos.

b) El examen consta de cuatro bloques de ejercicios:

1. Ejercicio de tipo competencial (**EJERCICIO 1**). El alumnado responderá a las cuestiones vinculadas al mismo. **No se ofrecen opciones**.
2. Ejercicio de tipo competencial (**EJERCICIO 2**). El alumnado responderá a las cuestiones vinculadas al mismo. **No se ofrecen opciones**.
3. Ejercicios de tipo práctico. Se presentan dos ejercicios (**EJERCICIO 3.1** y **EJERCICIO 3.2**) de los cuales se deberá responder solo a uno de los dos ejercicios.
4. Ejercicio de identificación de términos geográficos a partir de su definición. Se ofrecen dos ejercicios (**EJERCICIO 4.1** y **EJERCICIO 4.2**), debiendo el alumnado optar por uno de ellos.

c) Todos los ejercicios han de ser respondidos en el **cuadernillo del examen primero** y, solo si hiciese falta, en las **hojas auxiliares** entregadas por el personal autorizado, identificando claramente cada uno de ellos con su número de bloque, de ejercicio y de apartado.

BLOQUE 1

EJERCICIO 1. El mapa correspondiente a este ejercicio muestra los tipos de régimen fluvial en España. A partir del mismo y del texto que lo acompaña, responda a las cuestiones que aparecen a continuación (hasta 2,5 puntos):

a) Indique cinco ríos que presenten un régimen fluvial de tipo pluvial mediterráneo o pluvial subtropical (hasta 0,5 puntos).

b) Cite cinco cordilleras cuyos ríos registren un régimen fluvial de montaña (hasta 0,5 puntos).

c) Describa las características generales de los ríos de régimen pluvial y pluvionival oceánico (hasta 0,75 puntos).

d) Explique los factores que determinan los diferentes regímenes fluviales (hasta 0,75 puntos).

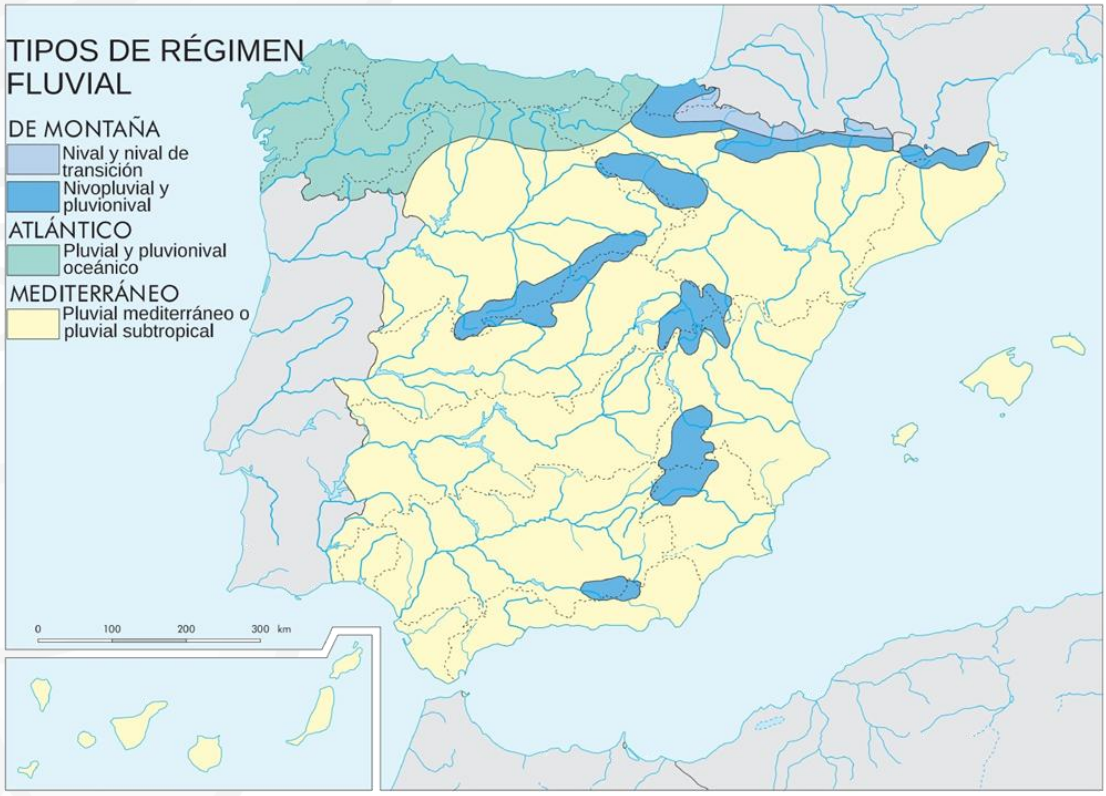

PRUEBA DE ACCESO A LA UNIVERSIDAD Y PRUEBA DE ADMISIÓN

ANDALUCÍA, CEUTA, MELILLA y CENTROS en MARRUECOS

CURSO 2025-2026

GEOGRAFÍA

"Los ríos peninsulares experimentan cambios de caudal en las diferentes estaciones del año (…). El ritmo de esas variaciones estacionales define el régimen fluvial (…) se evidencia que el ritmo estacional de los caudales de los ríos peninsulares ofrece marcadas diferencias (…). Casi la totalidad de los ríos que vierten sus aguas al océano Atlántico tienen un periodo de aguas altas centrado en invierno y que puede prolongarse hacia el otoño o la primavera, según los casos (…). En los tramos altos de los ríos pirenaicos, donde cobra protagonismo la nieve, es habitual un régimen de tipo nivo-pluvial con dos periodos de aguas altas y dos periodos de aguas bajas (…). Los ríos mediterráneos se caracterizan por tener dos, tres y hasta cuatro periodos de aguas altas y otros tantos de aguas bajas, siguiendo el ritmo irregular que la lluvia tiene en este ámbito territorial (…)."

IGN (2015). Aguas continentales y marinas. *Atlas Nacional de España*. Instituto Geográfico Nacional. Recuperado de: https://atlasnacional.ign.es/wane/Aguas_continentales_y_marinas (útimo acceso: 6 de marzo de 2026)

BLOQUE 2

EJERCICIO 2. El mapa representa la distribución provincial de las plazas de hotel en España. Observe la imagen y responda a las siguientes preguntas (hasta 2,5 puntos):

a) Indique cinco provincias donde el porcentaje de plazas de hotel respecto al total nacional se sitúa entre el 1,1 y el 2,0 por ciento (hasta 0,75 puntos).

b) Indique las provincias de interior que superan o igualan el 1,1 por ciento de plazas de hotel respecto al total nacional y describa su principal modelo turístico (hasta 0,75 puntos).

c) Analice la distribución territorial de las plazas de hotel en España y póngala en relación con el modelo turístico español (hasta 1 punto).

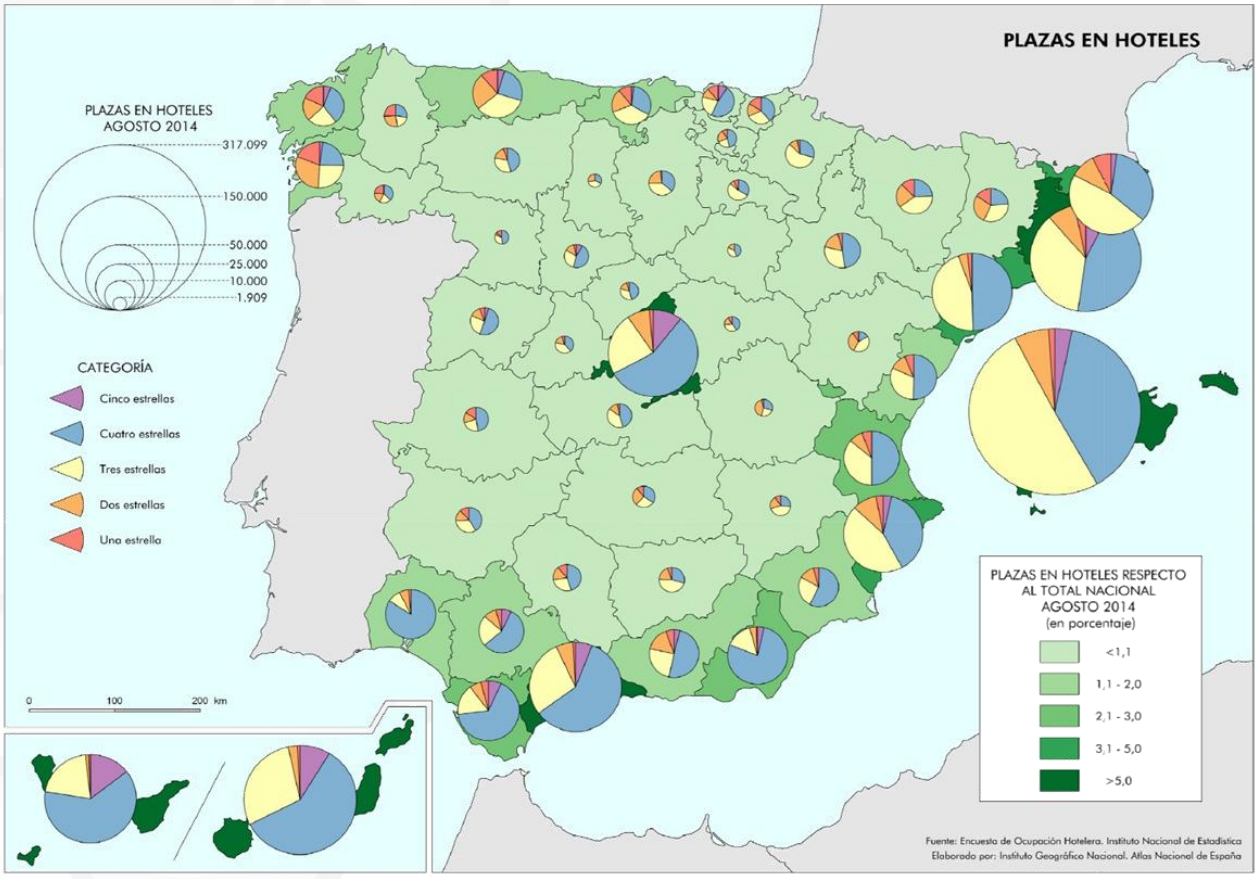

PRUEBA DE ACCESO A LA UNIVERSIDAD Y PRUEBA DE ADMISIÓN

GEOGRAFÍA

ANDALUCÍA, CEUTA, MELILLA y CENTROS en MARRUECOS

CURSO 2025-2026

BLOQUE 3

Se presentan dos ejercicios (**EJERCICIO 3.1** y **EJERCICIO 3.2**) de los cuales el alumnado debe responder solo a uno de ellos.

EJERCICIO 3.1. A la vista del climograma que se presenta, responda a las siguientes cuestiones (hasta 2,5 puntos):

a) Realice un análisis de los elementos termo-pluviométricos representados para, en base a ellos, indicar de qué tipo de clima se trata (hasta 1,25 puntos).

b) Explique los principales factores climáticos que influyen en este clima y señale en qué zonas de España podemos encontrarlo (hasta 1,25 puntos).

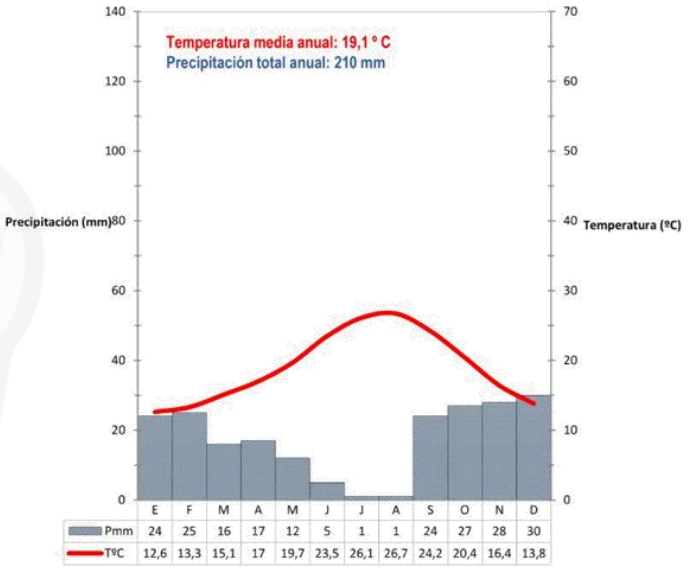

	E	F	M	A	M	J	J	A	S	O	N	D
Pmm	24	25	16	17	12	5	1	1	24	27	28	30
TºC	12,6	13,3	15,1	17	19,7	23,5	26,1	26,7	24,2	20,4	16,4	13,8

EJERCICIO 3.2. A la vista de la gráfica sobre la emigración (línea verde) e inmigración (línea roja) exterior para el período 2008-2021 en España que se presenta, responda a las siguientes cuestiones (hasta 2,5 puntos):

a) Analice ambos procesos y establezca las etapas correspondientes, relacionándolas con los factores que las determinan (hasta 1,25 puntos).

b) Explique las consecuencias de estos procesos para España (hasta 1,25 puntos).

EVOLUCIÓN DE LA EMIGRACIÓN E INMIGRACIÓN EXTERIOR

2008 – 2021



Fuente: Estadística de migraciones. INE

Atlas Nacional de España (ANE) CC BY 4.0 ign.es
Participantes: www.ign.es/resources/ane/participantes.pdf

PRUEBA DE ACCESO A LA UNIVERSIDAD Y PRUEBA DE ADMISIÓN

GEOGRAFÍA

ANDALUCÍA, CEUTA, MELILLA y CENTROS en MARRUECOS

CURSO 2025-2026

BLOQUE 4

En este bloque se plantean 10 expresiones para relacionarlas con determinados conceptos geográficos. Se presentan dos ejercicios (**EJERCICIO 4.1** y **EJERCICIO 4.2**) de los cuales el alumnado debe responder solo a uno de ellos.

EJERCICIO 4.1 (hasta 2,5 puntos, 0,5 puntos cada una)

a) Explotación agraria de gran tamaño, normalmente de producción extensiva orientada al mercado. En España se localiza fundamentalmente en la mitad sur.

b) Semicircunferencia que rodea a la Tierra de norte a sur, uniendo los polos y que sirve de referencia para determinar la longitud geográfica.

c) Terreno triangular comprendido entre los brazos exteriores por donde desembocan algunos ríos y en el que queda depositado el material que estos llevan en suspensión.

d) Espacio urbanizado que integra una ciudad central y su periferia circundante, pudiendo incorporar otros municipios contiguos.

e) Conjunto de especies vegetales que pueblan un territorio o una región geográfica, consideradas desde el punto de vista sistemático.

EJERCICIO 4.2 (hasta 2,5 puntos, 0,5 puntos cada una)

a) Distancia angular medida sobre un arco de paralelo expresada en grados entre cualquier punto de la superficie de la Tierra y el meridiano 0º o de Greenwich.

b) Relativo a especies vegetales o animales que son propias y exclusivas de un determinado ámbito geográfico. En la península ibérica hay unas mil setecientas, sobre todo flora de montaña, y solo en Canarias cerca de quinientas (ejemplos drago o tabaiba).

c) Terreno bajo y pantanoso que es invadido recurrentemente por las aguas del mar a través de las mareas o por las de los ríos en sus crecidas. Se trata de una zona de humedal, con ecosistemas frágiles, y donde predomina la sedimentación de fracción fina y pendientes muy bajas.

d) Zonas del mar especialmente aptas para la pesca por la presencia en ellas de gran número de peces donde los barcos calan.

e) Compañías mayoristas que integran todas las fases del negocio turístico. Estas agencias especializadas organizan el turismo, sobre todo el internacional. Manejan paquetes turísticos que incluyen estancias, visitas y el viaje.

PRUEBA DE ACCESO A LA UNIVERSIDAD Y PRUEBA DE ADMISIÓN

GEOGRAFÍA

ANDALUCÍA, CEUTA, MELILLA y CENTROS en MARRUECOS

CURSO 2025-2026

Instrucciones para la realización del examen

a) Duración: 1 hora y 30 minutos.

b) El examen consta de cuatro bloques de ejercicios:

1. Ejercicio de tipo competencial (**EJERCICIO 1**). El alumnado responderá a las cuestiones vinculadas al mismo. **No se ofrecen opciones**.
2. Ejercicio de tipo competencial (**EJERCICIO 2**). El alumnado responderá a las cuestiones vinculadas al mismo. **No se ofrecen opciones**.
3. Ejercicios de tipo práctico. Se presentan dos ejercicios (**EJERCICIO 3.1** y **EJERCICIO 3.2**) de los cuales se deberá responder solo a uno de los dos ejercicios.
4. Ejercicio de identificación de términos geográficos a partir de su definición. Se ofrecen dos ejercicios (**EJERCICIO 4.1** y **EJERCICIO 4.2**), debiendo el alumnado optar por uno de ellos.

c) Todos los ejercicios han de ser respondidos en el **cuadernillo del examen primero** y, solo si hiciese falta, en las **hojas auxiliares** entregadas por el personal autorizado, identificando claramente cada uno de ellos con su número de bloque, de ejercicio y de apartado.

BLOQUE 1

EJERCICIO 1. A partir de la imagen y del texto que la acompaña, responda a las cuestiones que aparecen a continuación. El mapa correspondiente a este ejercicio representa el relieve en la península ibérica e islas Baleares (hasta 2,5 puntos):

a) Indique en orden ascendente (comenzando por el 1 y terminando por el 10) el nombre de las unidades de relieve señaladas con los números 1 al 10 (hasta 1 punto).

b) Identifique y describa las características de los relieves señalados con los números 6 y 11 (hasta 1 punto).

c) En el mapa de este ejercicio aparecen los cauces principales de los ríos más importantes que recorren Andalucía. Indique de este a oeste el nombre de aquellos que aparecen señalados con una letra (hasta 0,5 puntos).

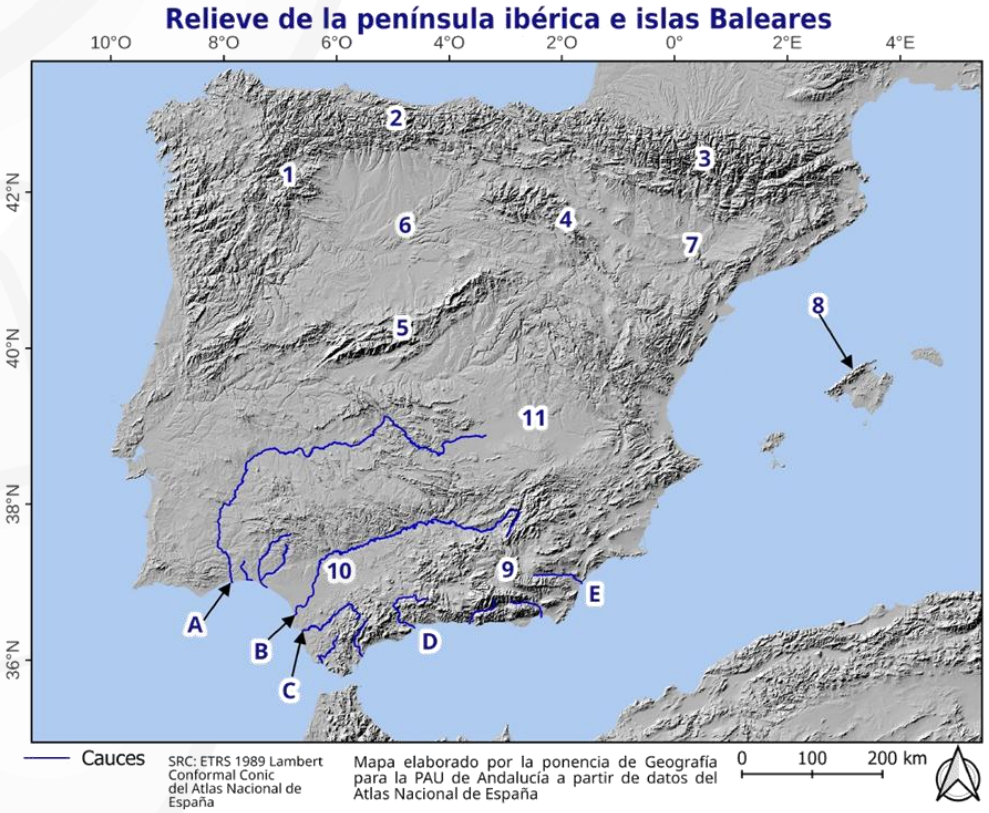

PRUEBA DE ACCESO A LA UNIVERSIDAD Y PRUEBA DE ADMISIÓN

GEOGRAFÍA

ANDALUCÍA, CEUTA, MELILLA y CENTROS en MARRUECOS

CURSO 2025-2026

"La principal característica topográfica de la península ibérica es su elevada altitud, debida a la existencia de una gran altiplanicie interior o meseta. La Meseta está rodeada por importantes relieves y dividida por el Sistema Central en dos submesetas (norte y sur). La altitud media está en torno a los 650 m. Las altitudes más frecuentes se sitúan entre 700 y 800 m. Un segundo pico de frecuencia aparece entorno a los 400 m, localizado en La Mancha y Galicia.".

Modificado de IGN (2015). Geomorfología. *Atlas Nacional de España del siglo XXI*. Instituto Geográfico Nacional. Recuperado de: https://atlasnacional.ign.es/wane/Aguas_continentales_y_marinas (útimo acceso: 1 de marzo de 2026)

BLOQUE 2

EJERCICIO 2. Observe la imagen y responda a las cuestiones que se presentan a continuación (hasta 2,5 puntos):

a) El mapa representa algunas provincias españolas. Indique de oeste a este sus nombres. Indique a qué año se refieren los datos de población mostrados en el mapa ¿Qué significa IGN e INE? (hasta 1 punto).

b) Utilizando el mapa, con respecto a la distribución de la población en el territorio, escriba lo que sepa sobre la España vaciada y el éxodo rural (hasta 0,75 puntos).

c) Utilizando el mapa, explique el sistema de ciudades español y el papel que el área metropolitana de Barcelona y su área de deslocalización juegan en él (hasta 0,75 puntos).

Distribución de la población residente en la España peninsular e islas Baleares

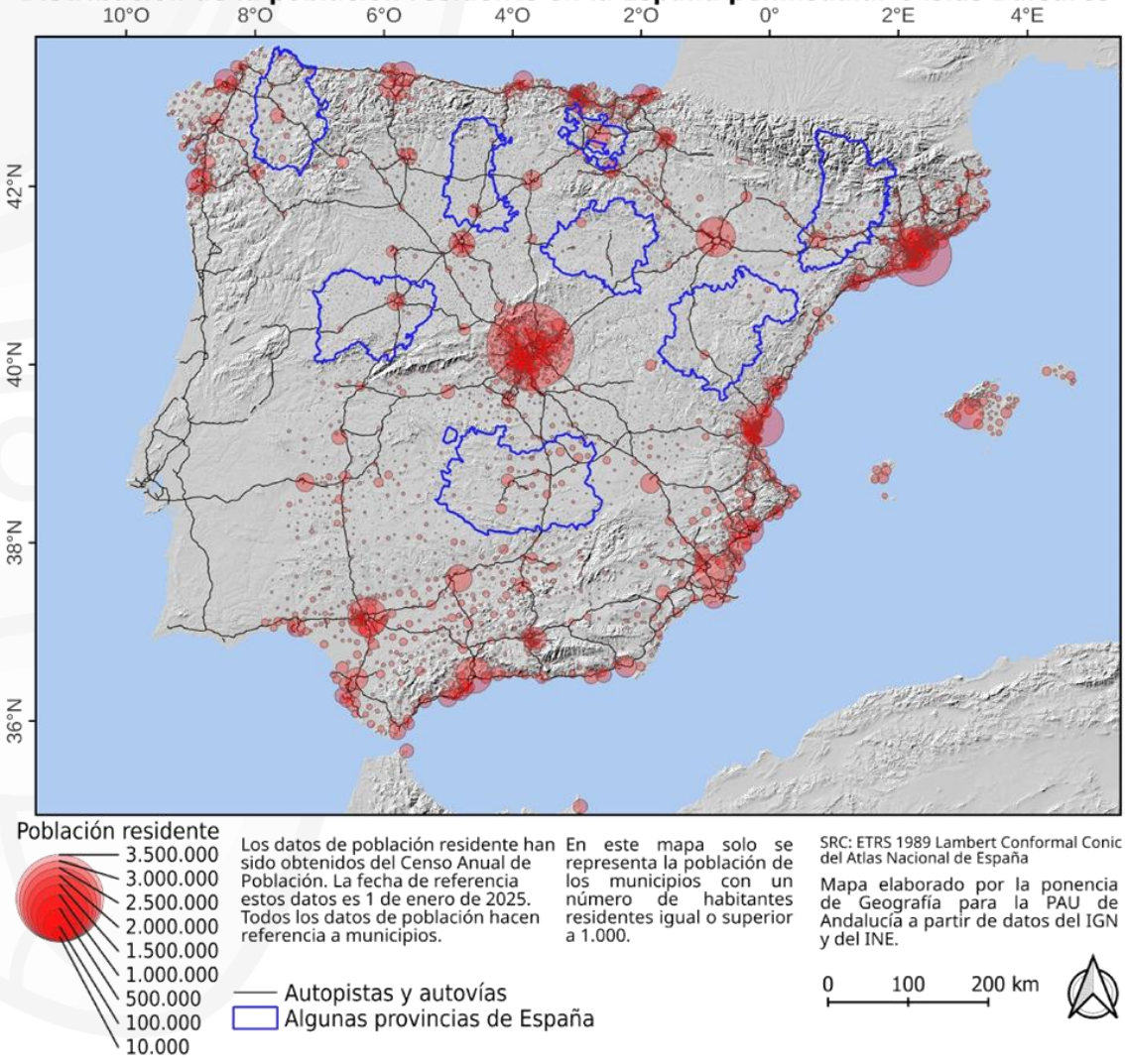

PRUEBA DE ACCESO A LA UNIVERSIDAD Y PRUEBA DE ADMISIÓN

ANDALUCÍA, CEUTA, MELILLA y CENTROS en MARRUECOS

CURSO 2025-2026

GEOGRAFÍA

BLOQUE 3

Se presentan dos ejercicios (**EJERCICIO 3.1** y **EJERCICIO 3.2**) de los cuales el alumnado debe responder solo a uno de ellos.

EJERCICIO 3.1. Analice los dos climogramas correspondientes a este ejercicio y conteste a las siguientes cuestiones (hasta 2,5 puntos):

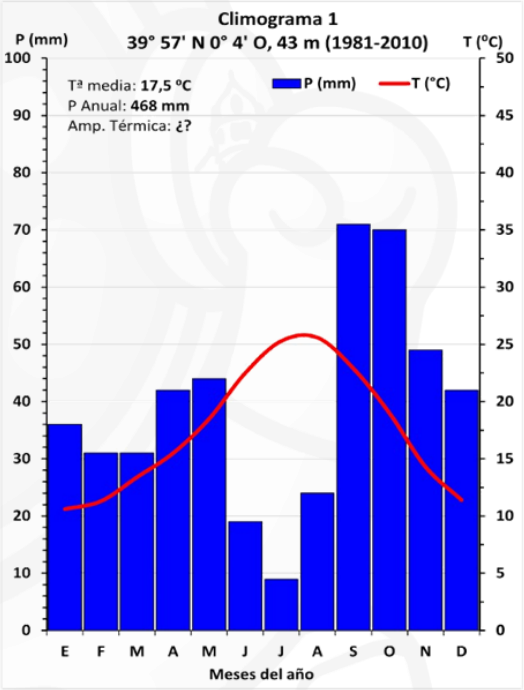

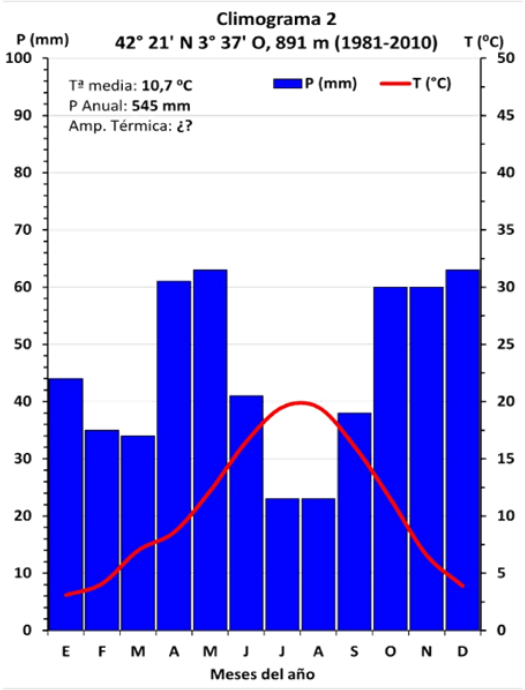

a) Calcule el valor aproximado de amplitud térmica en cada climograma e indique qué tipo de clima representa cada uno de ellos (hasta 1,25 puntos).

b) Explique cómo se representa la aridez mensual en los climogramas presentados y descríbala. Además, indique en qué zonas de España podemos encontrarlos (hasta 1,25 puntos).

EJERCICIO 3.2. Observe las pirámides de población de España de los años 1930 y 2021 correspondientes a este ejercicio. Analícelas y conteste las siguientes cuestiones (hasta 2,5 puntos):

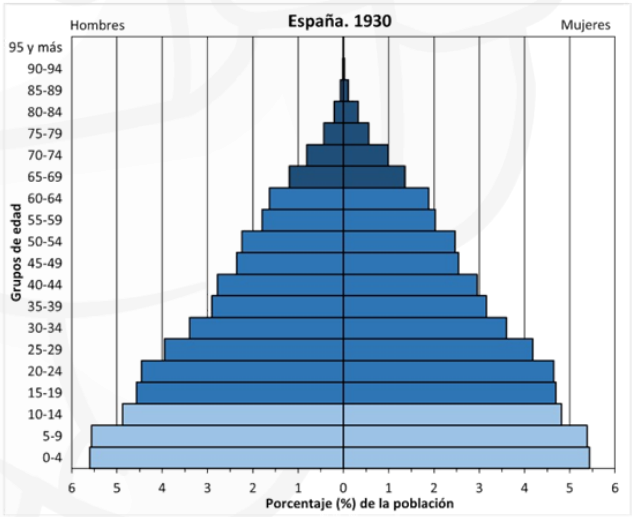

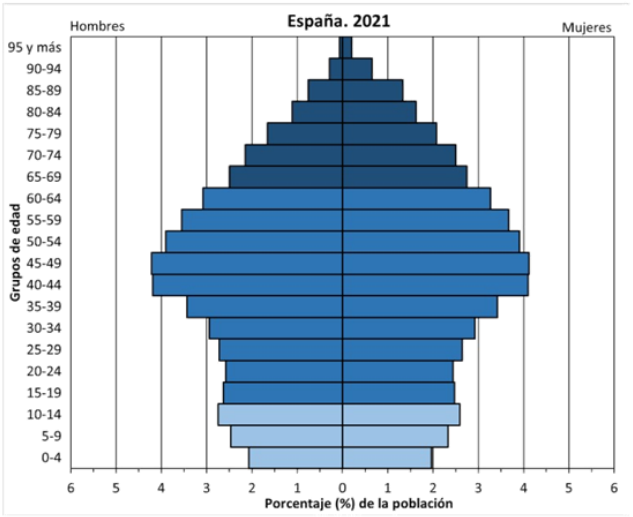

PRUEBA DE ACCESO A LA UNIVERSIDAD Y PRUEBA DE ADMISIÓN

ANDALUCÍA, CEUTA, MELILLA y CENTROS en MARRUECOS

CURSO 2025-2026

GEOGRAFÍA

a) Señale que tipos de pirámides nos encontramos en esos dos años, según la forma que se observa en ellas, y describa las características de los regímenes demográficos que han dado lugar a este tipo de pirámides (hasta 1,25 puntos).

b) Observe las pirámides de 1930 y 2021. Comente las principales diferencias existentes en su estructura demográfica por edad y sexo (hasta 1,25 puntos).

BLOQUE 4

En este bloque se plantean 10 expresiones para relacionarlas con determinados conceptos geográficos. Se presentan dos ejercicios (**EJERCICIO 4.1** y **EJERCICIO 4.2**) de los cuales el alumnado debe responder solo a uno de ellos.

EJERCICIO 4.1 (hasta 2,5 puntos, 0,5 puntos cada una)

a) Cartografía que utiliza diferentes símbolos puntuales, lineales o de superficies, descritos en una leyenda, para representar la distribución y otros fenómenos geográficos (evolución, densidad, flujos, etc.) de un tema concreto (población, economía, etc.).

b) Flujos de aire en altura que circulan a gran velocidad alrededor del planeta, de oeste a este, aprovechando las discontinuidades entre las células convectivas. Separa las masas de aire de origen polar y tropical.

c) Curva descrita por el curso de un río cuya sinuosidad es pronunciada y que es característica de las llanuras aluviales con pendiente muy escasa.

d) Es la superficie del fondo submarino próximo a la costa y situado entre esta y profundidades inferiores a 200 metros. En ella abunda la vida animal y vegetal por lo que es de gran importancia económica. Su límite exterior se suele caracterizar por un cambio brusco de pendiente.

e) Instrumento básico de ordenación integral del territorio que contiene la clasificación del suelo (rústico, urbano y no urbano), la estructura general del territorio, la zonificación básica, la protección del medio ambiente y la programación temporal.

EJERCICIO 4.2 (hasta 2,5 puntos, 0,5 puntos cada una)

a) Programas informáticos que permiten representar, gestionar y generar datos georreferenciados (es decir, datos con ubicación geográfica precisa), por lo que resultan de gran utilidad en la resolución de problemas de tipo territorial.

b) Tipo de bosque en el que las plantas o formaciones vegetales que lo componen pierden su hoja durante la estación fría. En España estas formaciones son características del clima oceánico y, por consiguiente, de la región biogeográfica eurosiberiana. Presentan árboles de tronco recto, liso y hojas anchas, como el roble o el haya, y sotobosque pobre.

c) Estado que presenta la atmósfera en una zona y momento determinado y viene reflejado por las características de la misma en ese instante (presión, viento, temperatura, humedad, precipitación…).

d) Área urbana planificada creada para acoger a la población creciente de las ciudades a partir del siglo XIX. En ellos se construyeron esencialmente edificios residenciales para la clase burguesa y se caracterizaron por el uso del plano ortogonal y manzanas con patios interiores.

e) Conjunto de actividades turísticas relacionadas con la cultura. Hace referencia a los desplazamientos motivados por conocer, comprender y disfrutar de los elementos propios de una sociedad o grupo social.

PRUEBA DE ACCESO A LA UNIVERSIDAD Y PRUEBA DE ADMISIÓN

GEOGRAFÍA

ANDALUCÍA, CEUTA, MELILLA y CENTROS en MARRUECOS

CURSO 2025-2026

Instrucciones para la realización del examen

a) Duración: 1 hora y 30 minutos.

b) El examen consta de cuatro bloques de ejercicios:

1. Ejercicio de tipo competencial (**EJERCICIO 1**). El alumnado responderá a las cuestiones vinculadas al mismo. **No se ofrecen opciones**.
2. Ejercicio de tipo competencial (**EJERCICIO 2**). El alumnado responderá a las cuestiones vinculadas al mismo. **No se ofrecen opciones**.
3. Ejercicios de tipo práctico. Se presentan dos ejercicios (**EJERCICIO 3.1** y **EJERCICIO 3.2**) de los cuales se deberá responder solo a uno de los dos ejercicios.
4. Ejercicio de identificación de términos geográficos a partir de su definición. Se ofrecen dos ejercicios (**EJERCICIO 4.1** y **EJERCICIO 4.2**), debiendo el alumnado optar por uno de ellos.

c) Todos los ejercicios han de ser respondidos en el **cuadernillo del examen primero** y, solo si hiciese falta, en las **hojas auxiliares** entregadas por el personal autorizado, identificando claramente cada uno de ellos con su número de bloque, de ejercicio y de apartado.

BLOQUE 1

EJERCICIO 1. El mapa correspondiente a este ejercicio presenta la altitud en España. A partir de la imagen y del texto que lo acompaña, responda a las cuestiones que aparecen a continuación (hasta 2,5 puntos):

a) Indique el nombre de las unidades de relieve señaladas con los números 1 al 5 (hasta 0,5 puntos).

b) Identifique y describa las características de los relieves señalados con las letras A y B (hasta 0,5 puntos).

c) Enumere y caracterice las cordilleras alpinas en España (hasta 0,75 puntos).

d) Analice las causas que ocasionan que la extensión de los glaciares en España sea mínima y que estén en retroceso, como señala el texto, e indique los agentes implicados en los procesos de erosión, transporte y sedimentación en el modelado glaciar (hasta 0,75 puntos).

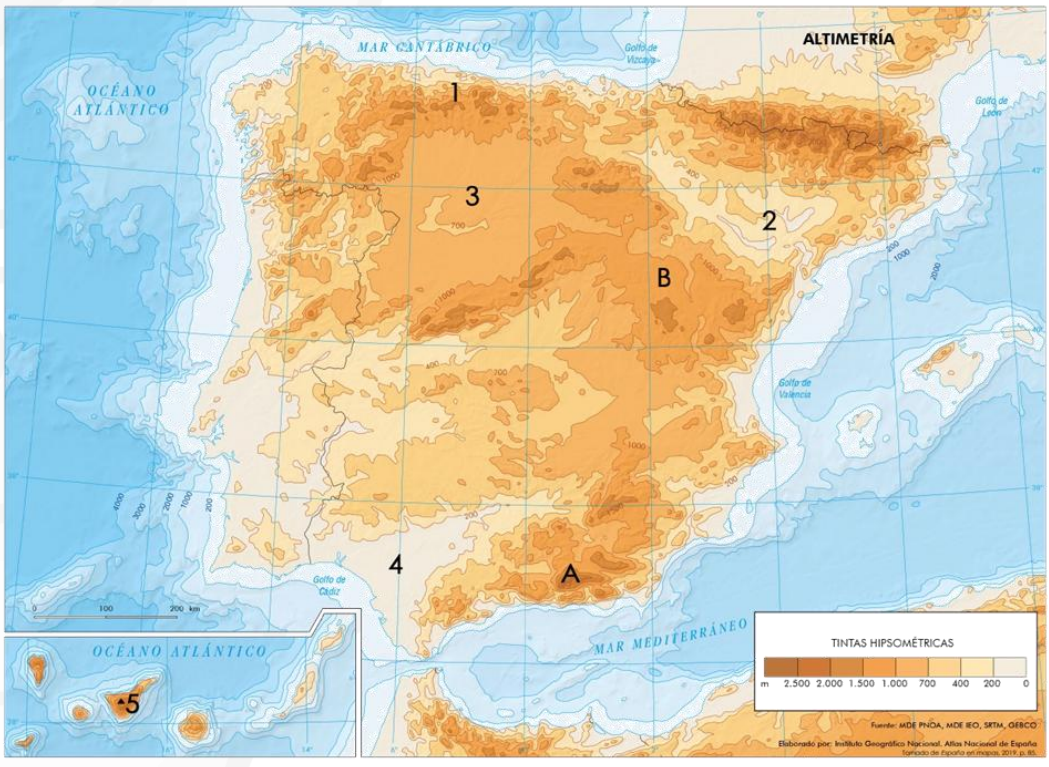

"En la actualidad, la actividad glaciar es mínima y en retroceso (…). Los glaciares en España se han reducido (…). Hoy ocupan una superficie insignificante. De 1984 a 1993 los glaciares activos en el Pirineo se redujeron de 1.800 a 468 ha, y en 2012 sólo existían 10 glaciares y 8

PRUEBA DE ACCESO A LA UNIVERSIDAD Y PRUEBA DE ADMISIÓN

ANDALUCÍA, CEUTA, MELILLA y CENTROS en MARRUECOS

CURSO 2025-2026

GEOGRAFÍA

heleros, con una extensión 160 ha. Entre las formas glaciares destacan: valles en U, valles colgados, lagos, circos glaciares y grandes aristas. También se dan formas sedimentarias como morrenas. Valles glaciares y circos son las formas más fáciles de reconocer, especialmente en el Pirineo".

IGN (2015). Geomorfología. *Atlas Nacional de España*. Instituto Geográfico Nacional. Recuperado de: https://atlasnacional.ign.es/wane/Geomorfolog%C3%ADa (útimo acceso: 6 de marzo de 2026)

BLOQUE 2

EJERCICIO 2. El mapa correspondiente a este ejercicio presenta la superficie de regadío sobre el total de tierras cultivadas por provincia. A partir del mismo, responda a las cuestiones que se presentan a continuación (hasta 2,5 puntos):

a) Indique cinco provincias donde la superficie de regadío no llega al 10,1 % (hasta 0,75 puntos).
b) Indique tres provincias en las que la superficie de regadío suponga más del 35 % de la superficie y caracterice el tipo de agricultura que explica esa importante extensión del regadío (hasta 0,75 puntos).
c) Explique el papel del regadío en la agricultura española y razone sobre su diferente distribución provincial (hasta 1 punto).

Superficie de regadío en la España peninsular e islas Baleares

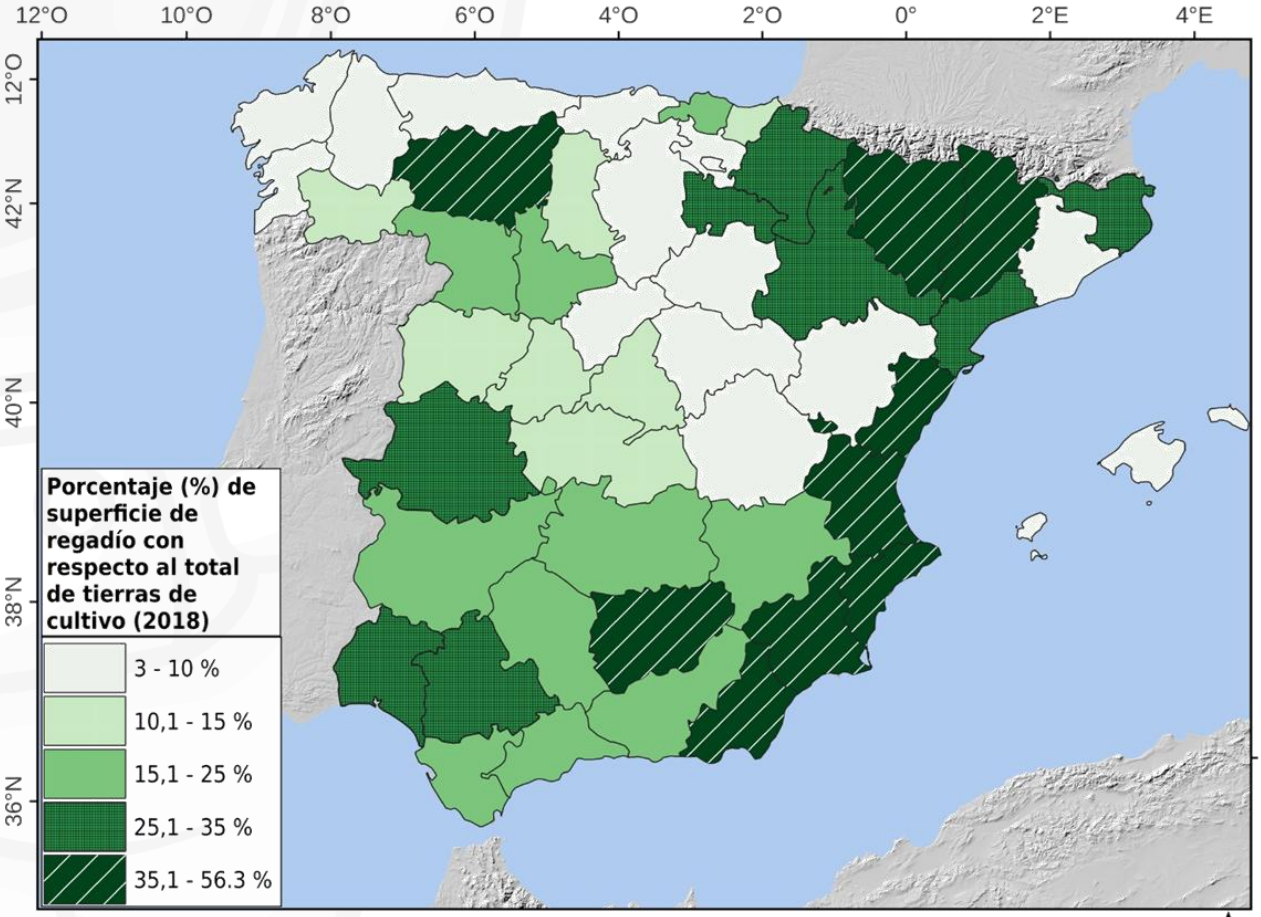

Mapa elaborado por la ponencia de Geografía para la PAU de Andalucía a partir de datos del Instituto Geográfico Nacional

SRC: ETRS 1989 Lambert Conformal Conic del Atlas Nacional de España

0 100 200 km

PRUEBA DE ACCESO A LA UNIVERSIDAD Y PRUEBA DE ADMISIÓN

GEOGRAFÍA

ANDALUCÍA, CEUTA, MELILLA y CENTROS en MARRUECOS

CURSO 2025-2026

BLOQUE 3

Se presentan dos ejercicios (**EJERCICIO 3.1 y EJERCICIO 3.2**) de los cuales el alumnado debe responder solo a uno de ellos.

EJERCICIO 3.1. A la vista del climograma que se presenta, responda a las siguientes cuestiones (hasta 2,5 puntos):

a) Realice un análisis de los elementos termopluviométricos representados para, en base a ellos, indicar de qué tipo de clima se trata (hasta 1,25 puntos).

b) Explique los principales factores climáticos que influyen en este clima y señale en qué zonas de España podemos encontrarlo (hasta 1,25 puntos).

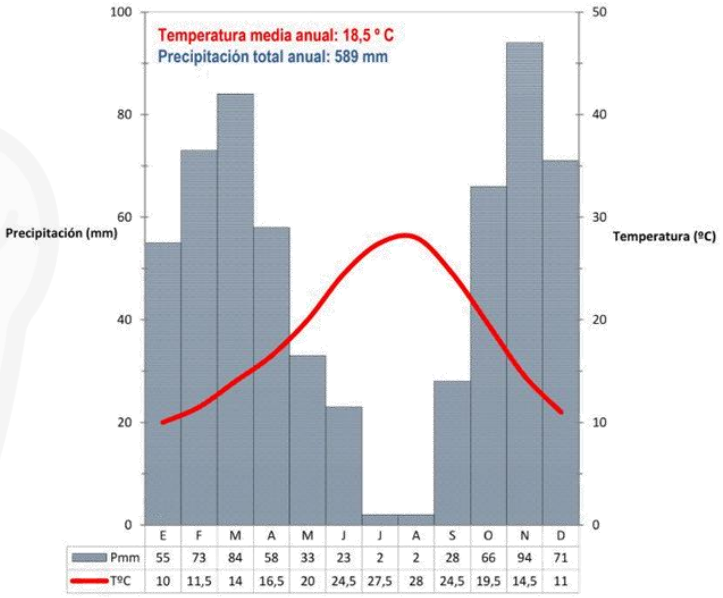

	E	F	M	A	M	J	J	A	S	O	N	D
Pmm	55	73	84	58	33	23	2	2	28	66	94	71
TºC	10	11,5	14	16,5	20	24,5	27,5	28	24,5	19,5	14,5	11

EJERCICIO 3.2. A la vista de la pirámide de población de España (año 1900) que se presenta, responda a las siguientes cuestiones (hasta 2,5 puntos):

a) Indique qué tipo de estructura presenta y describa sus características fundamentales (hasta 1,25 puntos).

b) Comente el régimen demográfico y el comportamiento de las variables demográficas del periodo considerado y los factores que influyen en las mismas (hasta 1,25 puntos).

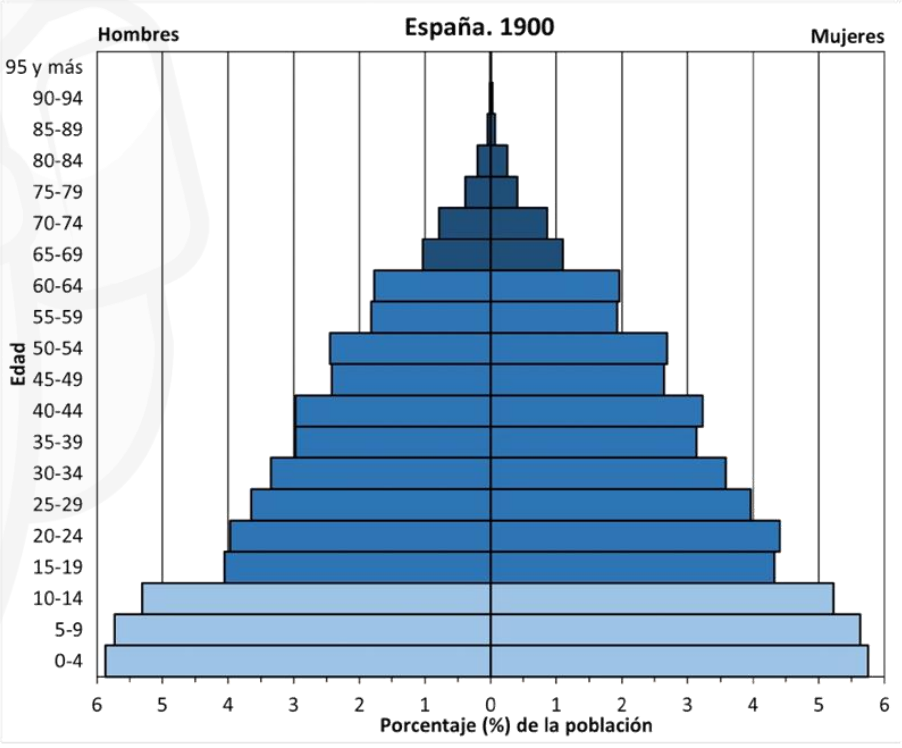

PRUEBA DE ACCESO A LA UNIVERSIDAD Y PRUEBA DE ADMISIÓN

GEOGRAFÍA

ANDALUCÍA, CEUTA, MELILLA y CENTROS en MARRUECOS

CURSO 2025-2026

BLOQUE 4

En este bloque se plantean 10 expresiones para relacionarlas con determinados conceptos geográficos. Se presentan dos ejercicios (**EJERCICIO 4.1** y **EJERCICIO 4.2**) de los cuales el alumnado debe responder solo a uno de ellos.

EJERCICIO 4.1 (hasta 2,5 puntos, 0,5 puntos cada una)

a) Número máximo de turistas que un espacio puede albergar sin llegar a deteriorarse.

b) Espacio entre divisorias de agua recorrido por un río principal y sus afluentes.

c) Tipo de bosque en el que las plantas o formaciones vegetales que lo componen pierden su hoja durante la estación fría. En España estas formaciones son características del clima oceánico y, por consiguiente, de la región biogeográfica eurosiberiana. Presentan árboles de tronco recto, liso y hojas anchas, como el roble o el haya, y sotobosque pobre.

d) Distancia angular medida sobre un arco de meridiano expresada en grados existente entre un punto cualquiera de la superficie terrestre y el ecuador terrestre.

e) Zona más antigua de la ciudad en la que se encuentran las primeras construcciones y espacios públicos, relacionados con el origen de la localidad y las zonas en las que creció hasta la etapa del desarrollo industrial.

EJERCICIO 4.2 (hasta 2,5 puntos, 0,5 puntos cada una)

a) Espacio urbanizado, ubicado en la periferia urbana, en el que se instalan industrias locales o de la región. Se construyen por iniciativa pública o privada y suelen contar con ventajas fiscales.

b) Obra de ingeniería civil que conecta dos cuencas hidrográficas, una excedentaria y otra deficitaria con el fin de abastecer de agua a la segunda y de esta manera poder satisfacer sus necesidades hídricas.

c) Conjunto de especies vegetales que pueblan un territorio o una región geográfica, consideradas desde el punto de vista sistemático.

d) Cambio estable y duradero en las características climáticas en periodos de tiempo que van desde décadas hasta millones de años. En general, se trata de cambios de orden natural, pero actualmente, se los encuentra asociados con el impacto humano sobre el planeta.

e) Acción de comprar o adquirir bienes, productos o servicios provenientes de otro país u otro mercado distinto del propio.